CLASSE 3H

LUNEDI'11 MAGGIO

Italiano

- Nuvola Blu: leggi ed evidenzia le informazioni principali della mappa di pag. 162.
- Occorrente per il meet di oggi: astuccio con evidenziatore (se possibile) o pennarello giallo, quaderno di grammatica e Nuvola Azzurro. Oggi affronteremo il presente e il passato prossimo delle tre coniugazioni - verbi in ARE, ERE, IRE (Nuvola Azzurro pag. 118, 119, 142, 143 e 144 solo le parti relative ai due tempi verbali indicati).
  Predisporre il quaderno di grammatica con la data odierna e il titolo; preparare la pagina piegata a metà.

Lunedì 11 maggio 2020

IL MODO INDICATIVO DEI VERBI

PRESENTE E PASSATO PROSSIMO

Matematica

- **Sul quaderno di matematica** se riesci stampa (o riscrivi) e leggi attentamente la spiegazione dopo aver ascoltato il vocale dell'insegnante.

I millesimi



Il rettangolo di carta millimetrata contiene 1000 quadretti

$\frac{1}{1000}$

Rappresentiamo il millesimo con la tabella

u	d	c	m
0	0	0	1

0 unità, 0 decimi, 0 centesimi, 1 millesimo

Il millesimo occupa il 3° posto dopo la virgola

• SCRIVI IN MODI DIVERSI

6 millesimi = $\frac{6}{1000}$ = 0,006

125 millesimi = $\frac{125}{1000}$ = 0,125

42 millesimi = $\frac{42}{1000}$ = 0,042

- **Nuvola verde:** completa pag. 49 e 53

Storia

- Ascolta il vocale dell'insegnante con la spiegazione di pag. 48 di Nuvola Giallo, evidenzia le informazioni più importanti della pagina e leggi come curiosità pag. 49.
- Completa il Laboratorio di pag. 166 di Nuvola Giallo e invialo all'insegnante insieme allo schema sul quaderno di Storia che era da consegnare entro oggi. Se l'hai inviato la settimana scorsa, non inviarlo di nuovo.

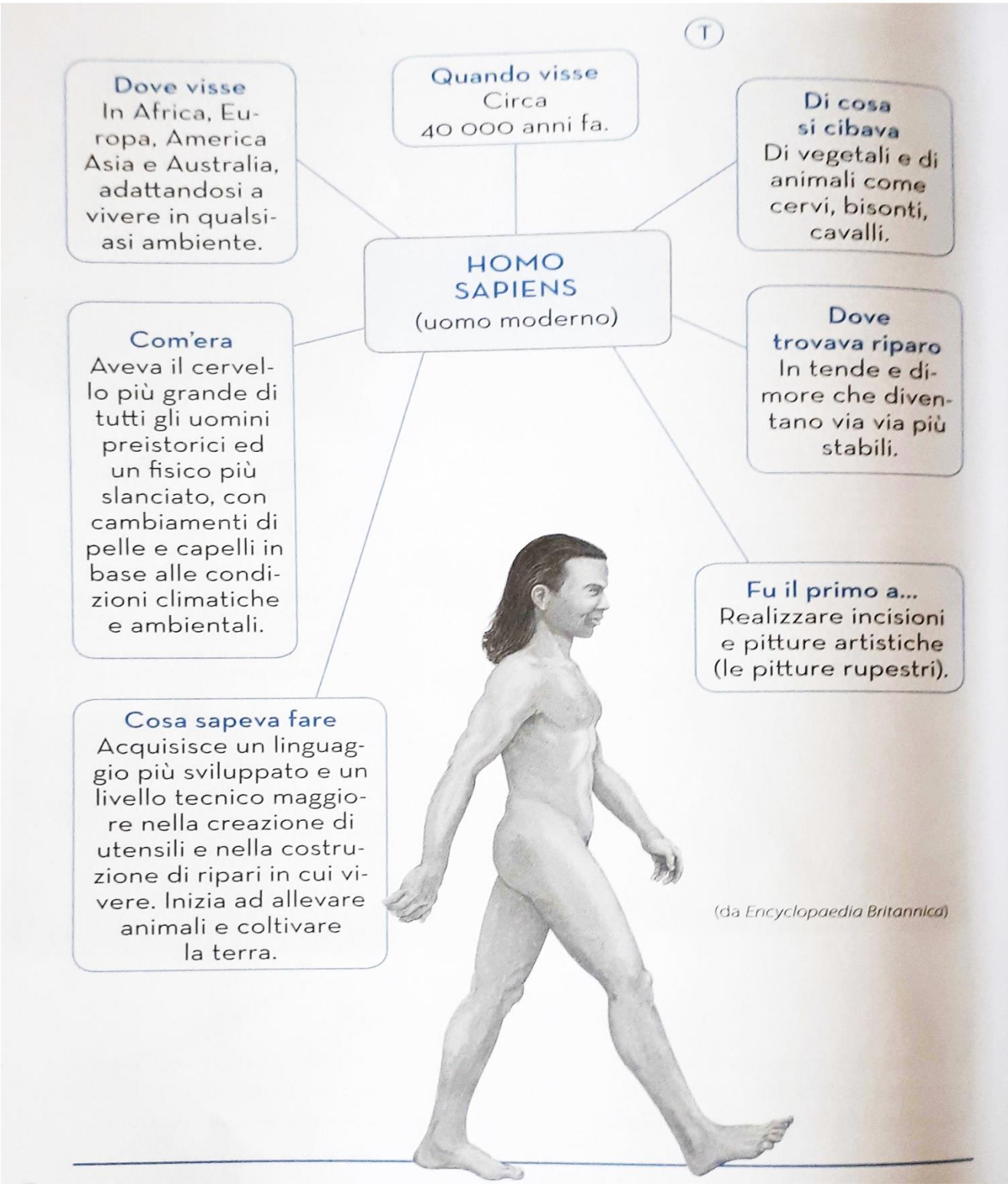

MARTEDI' 12 MAGGIO

Italiano

- Ascolta la spiegazione delle attività di oggi che saranno tutte sul libro Nuvola Azzurro.
- Lettura e avvio al riassunto: pag. 36.
- Leggi e completa pag. 152.
- Produzione scritta: pag. 164 – 165. Rispolvera le regole per scrivere un testo leggendo pag. 156.

Matematica

Occorrente per il meet "Frazioni e numeri decimali" di oggi: quaderno di matematica su cui scrivi la data e il seguente esercizio, lo eseguiremo insieme in meet.

Trasforma i seguenti numeri decimali in frazione

Es. 21,3 = $\frac{213}{10}$ 6,58 = $\frac{658}{100}$ 0,401 = $\frac{401}{1000}$

0,95 = 0,7 =

0,03 = 4,320 =

0,007 = 3,25 =

1,1 = 20,6 =

0,01 = 0,4 =

1,8 = 16,3 =

1,50 = 4,268 =

0,061 = 0,7 =

Scienze

Occorrente per il meet "Mi metto alla prova...vegetali e animali si adattano all'ambiente": il quaderno di scienze, Nuvola verde e l'astuccio.

Questi sono alcuni esempi di domande se riesci prova a rispondere oralmente.

1. Quali vegetali vivono nei luoghi freddi? Quali caratteristiche hanno?

2. Come e perché gli animali si adattano alle condizioni climatiche dei diversi ambienti?

3. Fai alcuni (almeno 3) esempi di animali che si sono adattati agli ambienti caldi e aridi raccontando come loro hanno modificato le loro abitudini e il loro corpo per sopravvivere.

4. In alta montagna (dove c'è un clima rigido) quale tipo di vegetazione si può trovare e perché?

5. Nella stagione invernale quali strategie adottano alcuni animali per sopravvivere?

6. Quali caratteristiche hanno i vegetali vivono nelle foreste?

7. Fai alcuni (almeno 3) esempi di animali che si sono adattati agli ambienti freddi raccontando come loro hanno modificato il loro corpo per sopravvivere.

MERCOLEDI' 13 MAGGIO

Italiano

- Nuvola Blu: leggi e completa pag. 163.
- Ascolta la canzone del MODO INDICATIVO: https://www.youtube.com/watch?v=S6tosIytOp0
- Occorrente per il meet di oggi: astuccio e Nuvola Azzurro. Lavoreremo insieme con un percorso guidato sul RIASSUNTO da pag. 37 fino a dove riusciremo ad arrivare.

Matematica

- **Nuvola Verde**: completa pag. 41-42, dopo aver ascoltato il vocale dell'insegnante.
- **Sul quaderno di matematica** (puoi copiare o fotocopiare e completare gli esercizi).

Scomponi

Es. 1,524 = 1u – 5d – 2c – 4m

126,4 =

356,162 =

0,58 =

451,8 =

132,052 =

0,097 =

1 407,58 =

4 851,049 =

102,321 =

2 076,9 =

643,88 =

3 046 =

300,026 =

4 007,1 =

1 690,30 =

49,034 =

876 =

5 012 =

Componi e leggi i numeri dopo averli composti

Es. 5da – 4u – 0d – 4c – 1m= 54,041

0u – 7d – 6c – 7m =

0u – 1d – 8c – 0m =

3da – 0u – 1d =

5da – 1u – 4d – 0c – 3m=

9h – 0da – 0u – 7d – 9c – 6m=

8h – 0da – 5u – 3d – 1c – 4m=

2h – 9da – 5u – 0d – 1c =

3uk – 4h – 4da – 0u – 6d =

6da – 9u – 9d =

6u – 0d – 2c – 2m =

1uk – 0h – 4da – 8u – 0d – 5c =

5uk – 3h – 0da – 5u – 9d – 2c – 8m =

3uk – 9h – 0da – 2u – 3d =

2h – 6da – 1u =

Geografia

- Se puoi ripassa l'argomento riguardando il bellissimo video sul **MARE** https://www.youtube.com/watch?v=7e1no9P93kw
- Guarda il video dell'insegnante al link che ti invierà per wup, leggi le pagine 128 e 129 di Nuvola Giallo evidenziando le informazioni importanti, come ti viene suggerito.
- Completa i Laboratori di pag. 201 e 202 di Nuvola Giallo e invia le attività all'insegnante.
- Rappresenta sul quaderno il mare indicando le parole principali all'interno di cartellini come nell'esempio oppure rappresenta il mare come tu preferisci e inserisci le parole nella posizione corretta.

GIOVEDI' 14 MAGGIO

Italiano

- Guarda il video https://www.youtube.com/watch?v=LjbBipa3_q4 : ti spiegherà in modo dettagliato cosa sono le ESPANSIONI in una frase.
- Nuvola Blu: leggi e completa pag. 88 e 89.
- Eserciziario Blu: completa pag. 68.
- Sul quaderno di grammatica esegui le seguenti attività sulle espansioni o complementi in analisi logica.

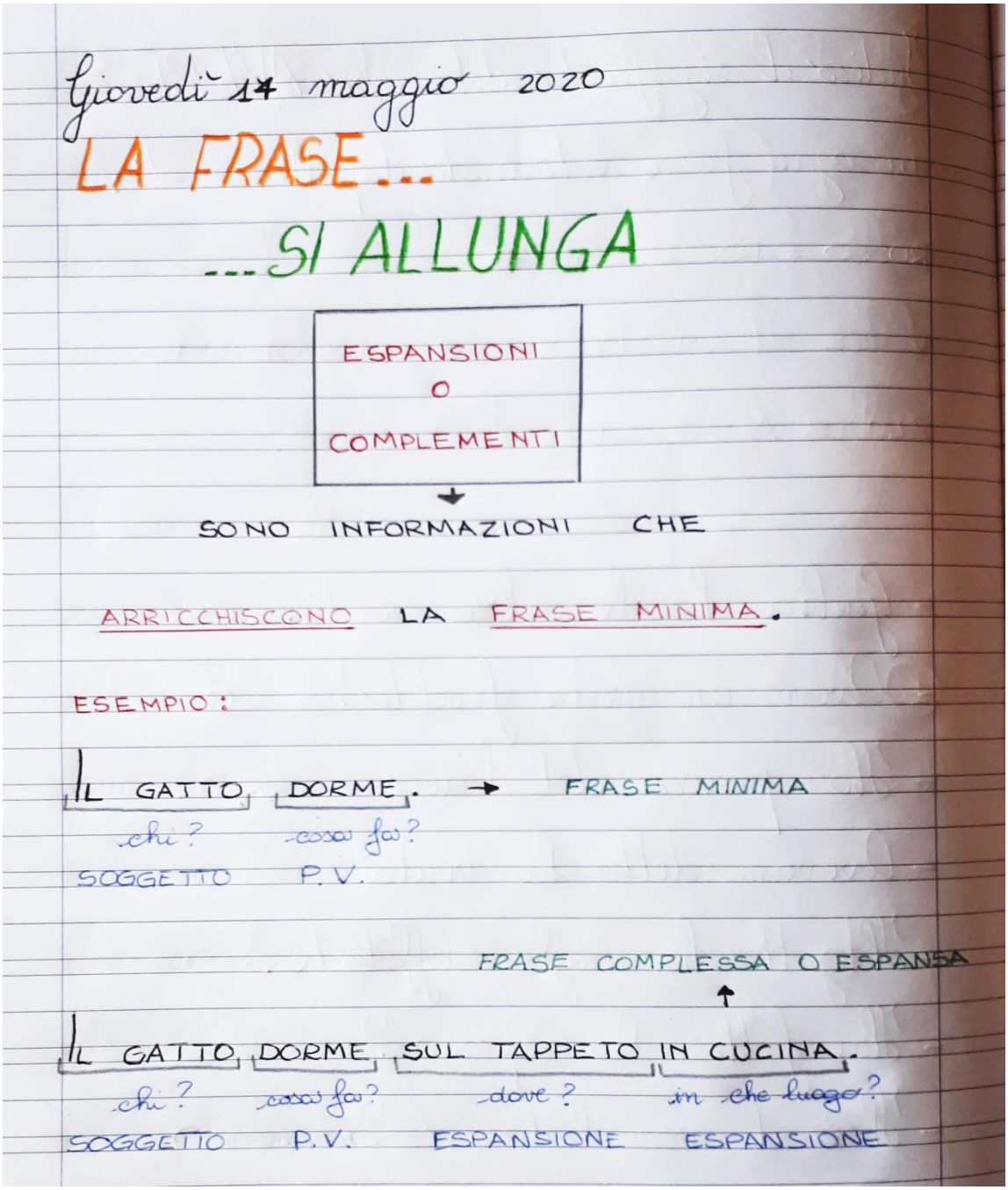

Arricchisci le frasi minime aiutandoti con le domande.

Luigi studia...

che cosa? matematica

dove?

quando?

Il traghetto naviga...

come?

dove?

quando?

I topi scappano...

da chi?

dove?

come?

I bambini si tuffano...

dove?

come?

con che cosa?

Il cane abbaia...

a chi?

dove?

quando?

La ragazza cammina...

dove?

con chi?

quando?

Matematica

Occorrente per il meet "L'euro" di oggi: Nuvola verde, quaderno di matematica e astuccio.

Lavoreremo insieme sull'euro pag. 54-55 e 166.

VENERDI' 15 MAGGIO

Italiano

- Nuvola Blu: leggi pag. 90 e completa l'esercizio "COMPRENDERE".
- Eserciziario Blu: completa le pag. 46 e 47 (di entrambe le pagine l'es. 3 non va svolto) e pag. 71 come ripasso e consolidamento di sintagmi e frase minima.

Matematica

- Sul quaderno di matematica

Calcola in colonna con la prova

1 436 + 678 + 4 643 =

406 x 89 =

8 056 – 5 775 =

4 295 : 9 =

Problema pag.166 3c (Attenzione alla domanda nascosta)

GEOMETRIA

- Sul quaderno di geometria puoi stampare o scrivere solo le domande completandole.

Colora di rosso i quadrati, di verde i cerchi, di arancione i triangoli e di blu i rettangoli. Conta e rispondi alle domande.

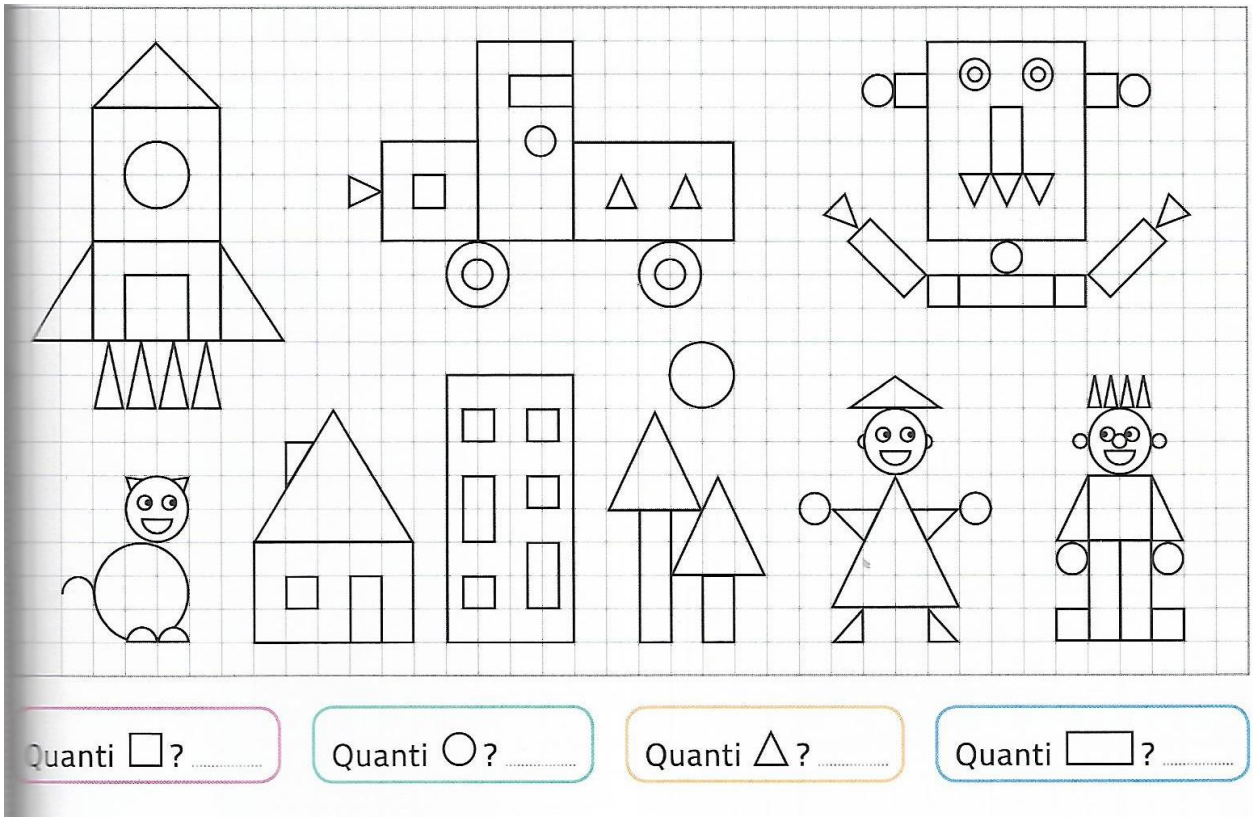

Inglese

- Ascolta il vocale dell'insegnante con la spiegazione dell'attività di oggi.
- Lapbook: pag. 3 e 4 – segui le istruzioni all'interno "Clothes" e studia i vocaboli.
- The story garden: ripassa i vocaboli a pag. 68 – 69.
- The story garden (osserva gli esempi dell'insegnante)
  - completa ex. 8 – 9 pag. 72
  - completa ex. 11 pag. 73
  - completa ex 1 pag. 135.

RIFERIMENTI … PER INVIARE I TUOI LAVORI

Silvia Degli Antoni: degliantoni@cdpav.com
Tatiana Ferrarini: ferrarini@cdpav.com