CLASSE 3H

RICORDA… NON E' NECESSARIO STAMPARE O FOTOCOPIARE NULLA,

PUOI LEGGERE ED ESEGUIRE SUI QUADERNI!

LUNEDI' 27 APRILE

Italiano

- Ascolta la spiegazione dell'insegnante; tutte le attività di italiano di oggi sono da svolgere sui libri.
- Leggere e ripetere almeno 2 volte i verbi a pag. 141 di Nuvola Azzurro (ve li sentirò nel meet del 30/04).
- Nuvola Blu: leggi pag. 85 (esegui solo esercizio "Analizzare il testo).
- Eserciziario Blu: leggi e completa le pag. 39 – 42 – 43.

Matematica

- Ascolta l'audio dell'insegnante e ricopia sul quaderno di matematica.

I centesimi

RICOPIA



→ È un intero o unità (u)



È un intero diviso in 10 parti
→ uguali, ho colorato una delle 10 parti
cioè $\frac{1}{10} = 0,1$

u,	d
0,	1

È un intero diviso in 100 parti uguali. Ho colorato una delle
→ 100 parti
cioè $\frac{1}{100} \rightarrow 0,01$

u,	d	c
0,	0	1

Il simbolo del centesimo è (c) e occupa questa posizione:

uK	h	da	u,	d	c

STUDIARE

RICOPIA

Colora e scrivi la frazione e il numero decimale corrispondente

Es:

$\frac{4}{100}$



$\frac{4}{100} \rightarrow$ u, d c
0, 0 4



$\frac{9}{100} \rightarrow$ u, d c
0, 0 9



$\frac{5}{100} \rightarrow$ u, d c



Storia

- Ascolta l'audio dell'insegnante con il ripasso dall'homo habilis fino alla presentazione dell'homo sapiens.
- Apri il link che l'insegnante ti ha inviato su wup con la spiegazione dell'Homo Sapiens da pag. 42 a pag.44 di Nuvola Giallo ed evidenzia i contenuti principali.
- Completa l'attività sul libro a pag. 44 e gli esercizi a pag. 162 – 163, poi invia queste due ultime pagine all'insegnante.

MARTEDI' 28 APRILE

Italiano

- Ascolta il vocale dell'insegnante con la spiegazione delle attività.
- Leggere e ripetere almeno 2 volte i verbi a pag. 141 di N. Azzurro (ve li sentirò nel meet del 30.04).
- Eserciziario Blu: leggi e completa pag. 34.
- Nuvola Azzurro: leggi e completa pag. 84.
- Sul quaderno di grammatica, scrivi la data ed esegui l'analisi grammaticale delle seguenti frasi.

Analisi grammaticale

1. LE NOSTRE AMICHETTE SONO GENTILI.
2. IL PETTIROSSO E' UN UCCELLO COLORATO.
3. IO HO UNA BELLA SORELLINA.

Matematica

- Ascolta l'audio dell'insegnante, leggi e completa pag.51 di Nuvola Verde.

Calcola la frazione dei seguenti numeri:

Es: $\frac{4}{7}$ di $56 = (56:7) \times 4 = 8 \times 4 = 32$ $\frac{4}{7}$ di 56 è 32

$\frac{3}{5}$ di $45 =$

$\frac{5}{9}$ di $90 =$

$\frac{4}{6}$ di $42 =$

$\frac{2}{7}$ di $28 =$

$\frac{6}{9}$ di $45 =$

$\frac{7}{8}$ di $64 =$

$\frac{3}{5}$ di $40 =$

$\frac{5}{6}$ di $18 =$

$\frac{4}{9}$ di $72 =$

$\frac{5}{8}$ di $48 =$

$\frac{2}{5}$ di $35 =$

- Se riesci...ripassa le tabelline

- **<u>Riscrivi il primo problema come nella pagina di quaderno sottostante e lo completeremo insieme durante il meet. Ricopia il testo del secondo problema la cui risoluzione verrà effettuata insieme in meet.</u>**

RICOPIA

Risolvi il problema COMPLETA

Emma sta leggendo un libro di 120 pagine.
Finora ha letto i $\frac{2}{6}$ del libro.
Quante pagine ha già letto?

Risolvo

DATI

120 = pagine di un libro
$\frac{2}{6}$ di 120 = pagine lette

Devo trovare le pagine già lette

$\frac{2}{6}$ di 120 = (120 : _) x _ = 20 x _ = p. lette

120 | 6
00 | 20
0

Risposta

Emma ha già letto pagine

Ora prova tu

Problema

Rita compra una scatola che contiene 36 biscotti e ne mangia $\frac{3}{4}$.
Quanti biscotti ha mangiato Rita?

Scienze

- Ascolta la spiegazione dell'insegnante, leggi e sottolinea con attenzione pag. 140 e 141 di Nuvola Verde.
- Scrivi sul quaderno di scienze la mappa concettuale e ripetila almeno 2 volte.
  (hai 15 giorni di tempo per realizzarla fino al 12 maggio).

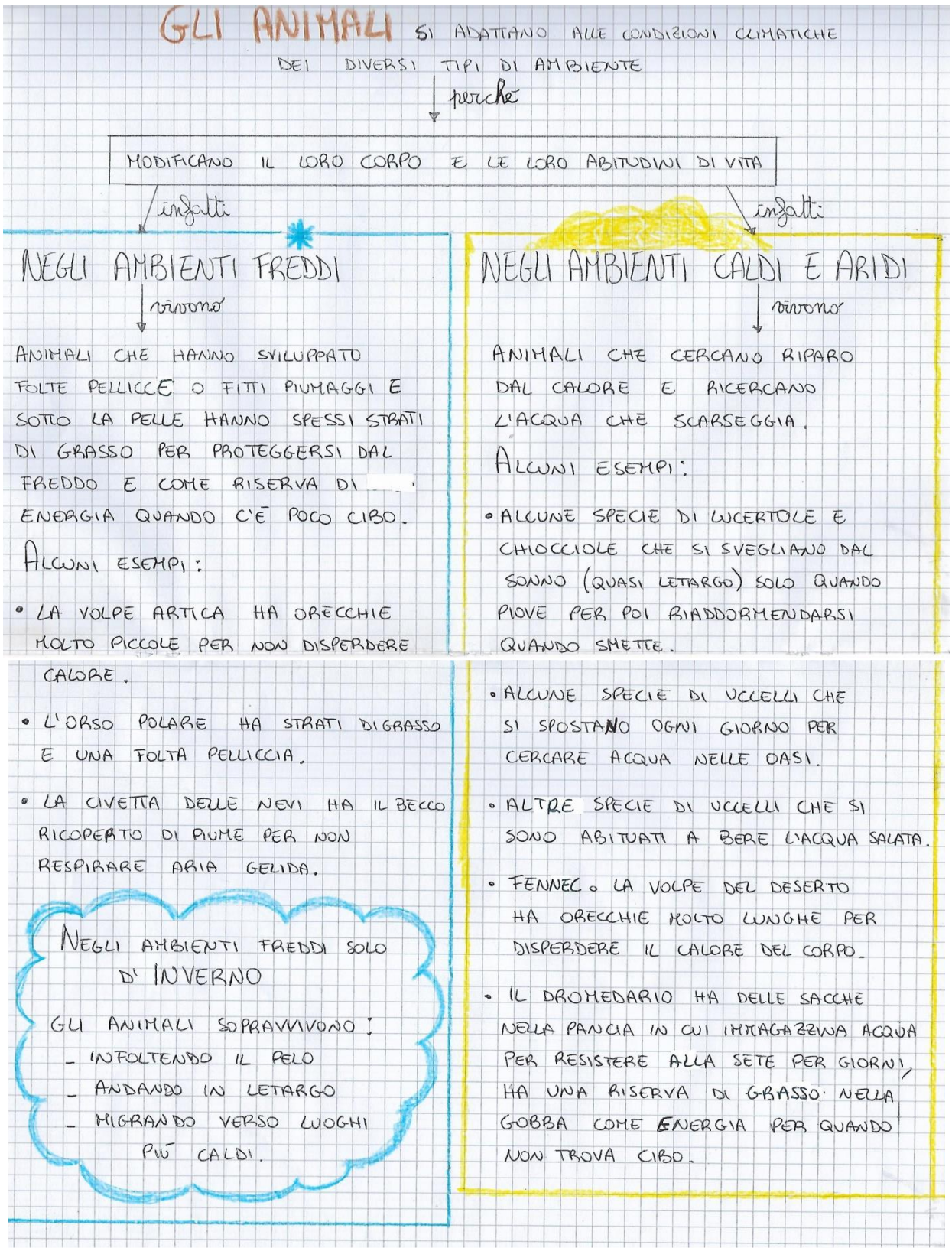

MERCOLEDI' 29 APRILE

Italiano

- Ascolta il vocale dell'insegnante con la spiegazione delle attività.
- Leggere e ripetere almeno 2 volte i verbi a pag. 141 di Nuvola Azzurro (ve li sentirò nel meet del 30.04).
- Esegui gli esercizi 1 e 2 di pagina 70 del Libro Viola.
  - L'esercizio 1 può essere svolto sul libro, chi vuole può anche colorarlo.
  - L'esercizio 2 è da svolgere sul quaderno dei testi prendendo spunto o dalla descrizione del castello appena letta o utilizzando schema, scaletta e domande guida a pag. 189 di Nuvola Azzurro. Si consiglia di svolgere il testo in brutta copia, rileggerlo e ricopiarlo in bella.

Matematica

- Ascolta l'audio dell'insegnante e completa pag.52 Nuvola Verde.

- Calcola con la prova.

7 429 + 134 + 5 = 49 x 78 =

8 000 - 5 439 = 4 906 : 9 =

- Attenzione alla domanda nascosta!!! Individua la domanda e risolvi sul quaderno.

Problema

La mamma ha vinto 50 euro in buoni acquisto. Ha già speso 46 euro.

……..……..(domanda)

Con la somma restante vuole acquistare delle bibite che costano 2 euro ciascuna.

Quante bibite potrà acquistare?

- Se riesci cerca la risposta esatta

GEOMETRIA

- Se riesci stampa la scheda altrimenti completa la tabella.

angolo	n.1	n.2	n.3	n.4	n.5	n.6	n.7
misura							

1 Leggi le informazioni, poi scrivi la misura di ogni angolo.

Il **goniometro** è lo strumento usato per misurare gli angoli.

Come si usa?

1. Fai corrispondere il centro del goniometro con il vertice dell'angolo da misurare;
2. fai attenzione che un lato dell'angolo passi per la tacca del goniometro indicante lo 0;
3. osserva dove arriva l'altro lato: questo numero sul goniometro indica l'ampiezza dell'angolo, che si misura in **gradi** (°).

n.1

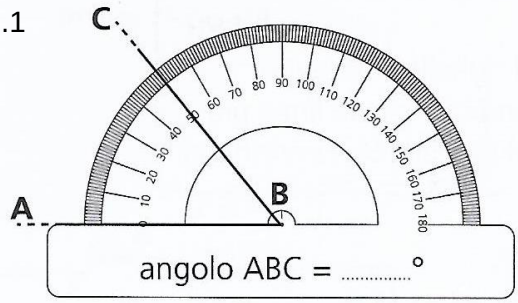

n.2

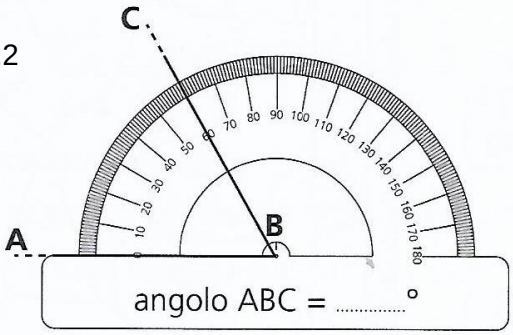

n.3

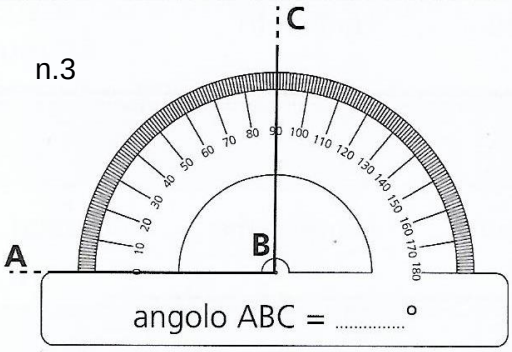

n.4

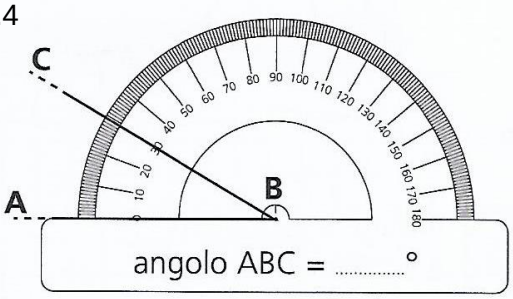

n.5

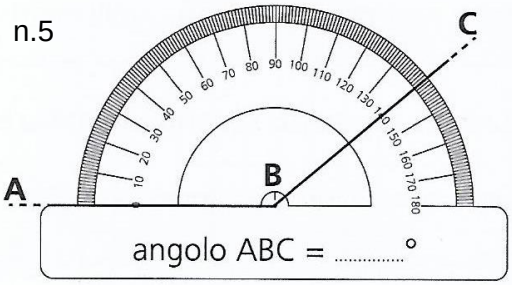

n.6

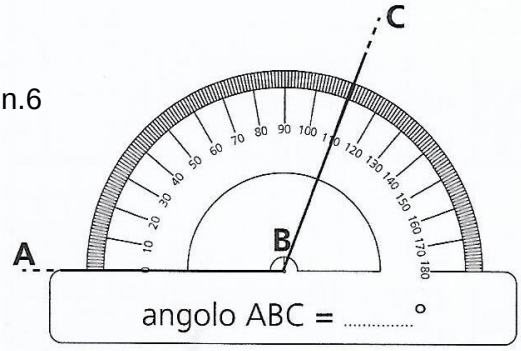

n.7

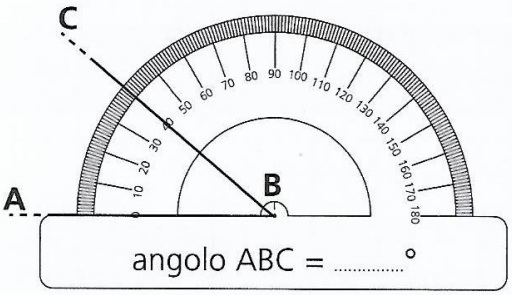

Geografia

- Ascolta il vocale dell'insegnante con la spiegazione delle attività.
- Ripassare il **LAGO** pag. 122 - 123 - 124 di Nuvola Giallo (farò qualche domanda durante il meet del 30.04).
- Realizza lo schema sul quaderno di Geografia, aiutandoti anche con quello nello studio, ho aggiunto qui la parte relativa alle attività che sul vostro libro non venivano trattate.

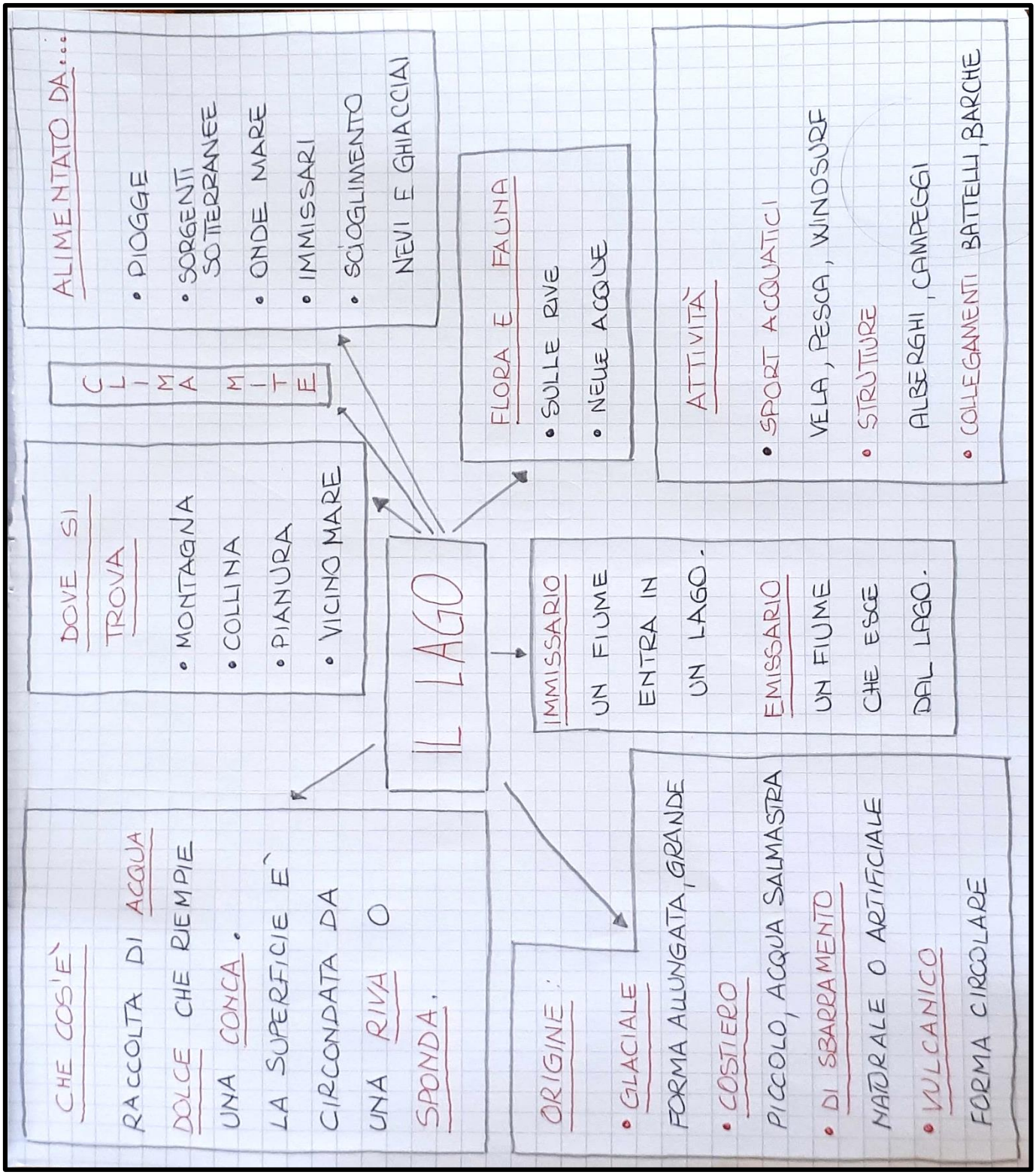

GIOVEDI' 30 APRILE

Italiano

- Ascolta il vocale dell'insegnante con la spiegazione delle attività.
- Ripassa i verbi ESSERE e AVERE a pag. 141 del libro N. Azzurro (avrò occasione di sentirveli stasera durante il meet).
- Eserciziario Blu: ripassa soggetto e predicato con le attività di pag. 65 e 66 (L'esercizio 4 di pag. 66 non è da eseguire).
- Scrivi la data di oggi ed esegui l'analisi logica delle seguenti frasi sul quaderno di grammatica, ripassando la regola e osservando gli esempi con attenzione. Le attività che trovate sotto sono da svolgere sul quaderno.

ANALISI LOGICA

- **Predicato Verbale**

  Risponde alla domanda CHE COSA FA?

  E' sempre un verbo, ed esprime l'azione compiuta o subita dal soggetto.

  Esempio: Il cane (SOGG.) corre. (P.V.)

- **Predicato Nominale**

  Risponde alle domande COM'E'? COME SONO? COSA E'?

  E' sempre introdotto dal verbo ESSERE + aggettivo o nome.

  Esempi: Luca (SOGG.) è alto. (P.N.) — La farfalla (SOGG.) è un insetto. (P.N.)

- Giovanni è un insegnante.
- Il cavallo galoppa.
- Laura è intelligente.
- L'ingegnere progetta.
- Il poeta scrive.
- L'alunno è attento.

Matematica

- Ascolta l'audio dell'insegnante, riscrivi e completa sul quaderno di matematica.

Calcola

$\frac{3}{5}$ di $25 = (25 : 5) \times 3 = 5 \times 3 = 15$ $\frac{3}{5}$ di 25 è 15

$\frac{6}{8}$ di $56 =$

$\frac{2}{7}$ di $28 =$

$\frac{5}{9}$ di $63 =$

$\frac{4}{8}$ di $72 =$

$\frac{2}{6}$ di $36 =$

$\frac{1}{2}$ di $20 =$

$\frac{3}{4}$ di $32 =$

GEOMETRIA

- Puoi ricopiare gli angoli sul quaderno di geometria o stampare la scheda.

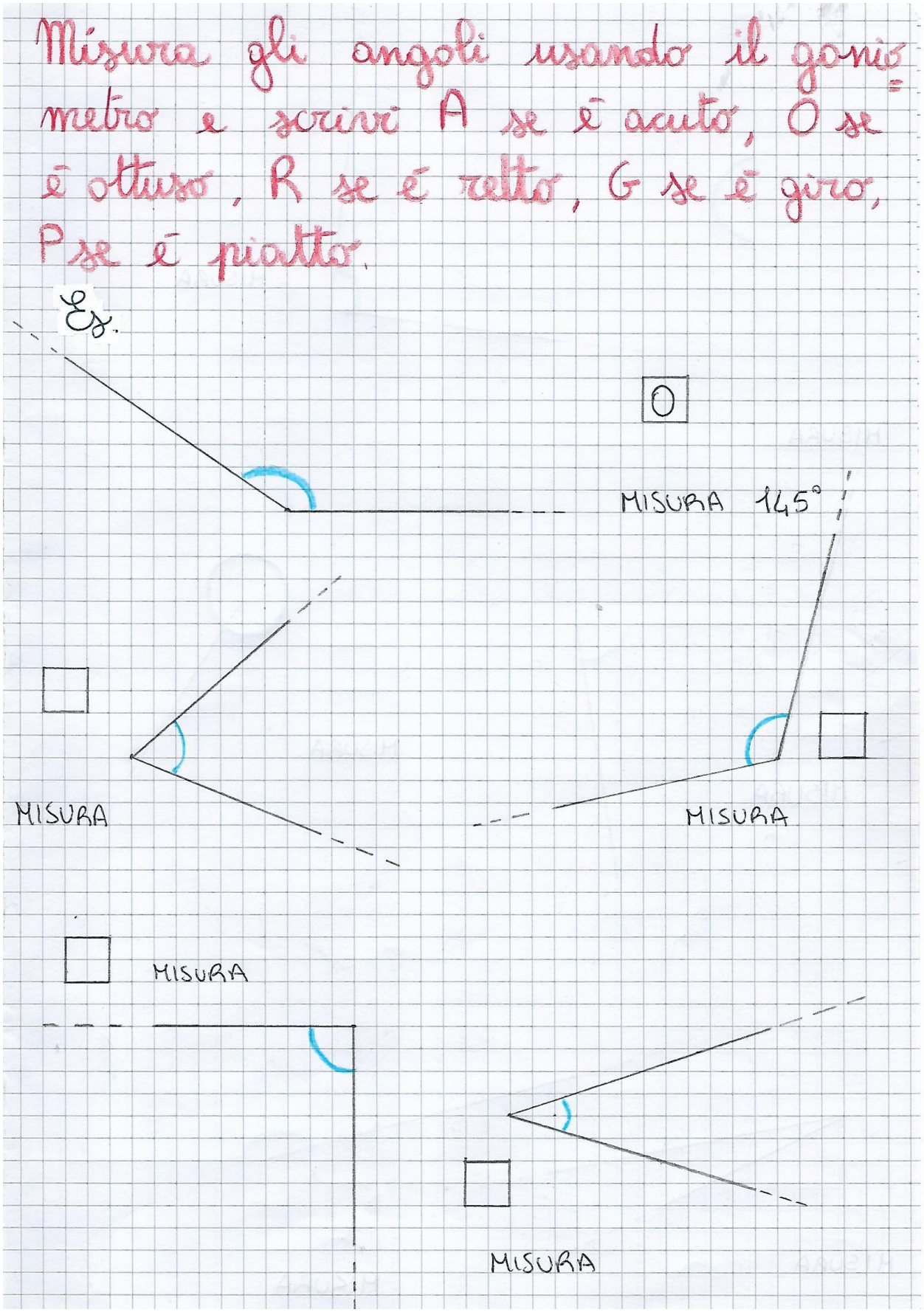

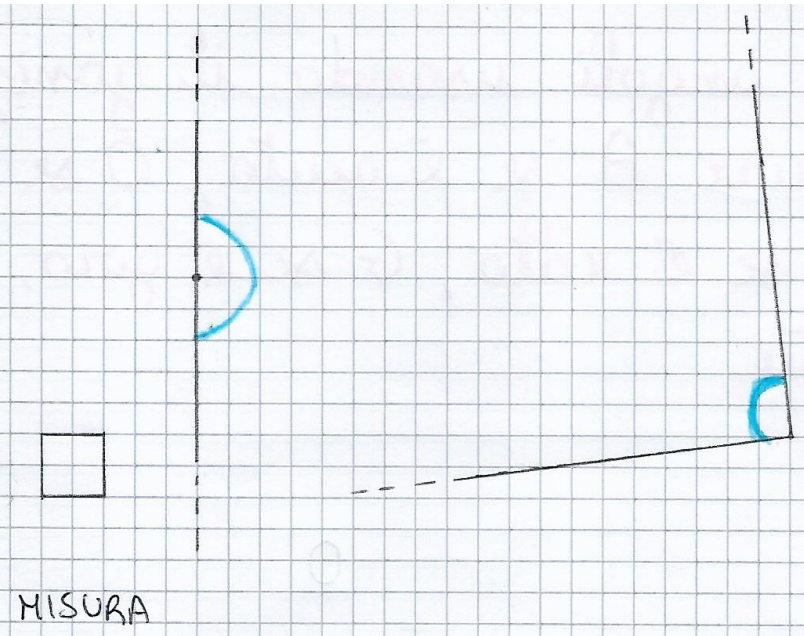
MISURA

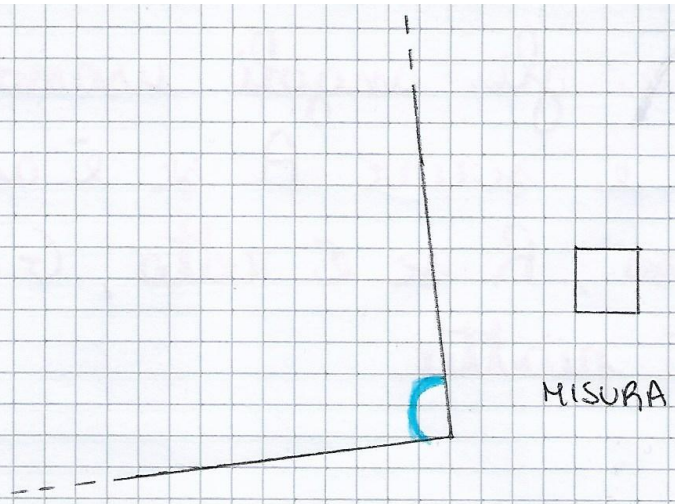
MISURA

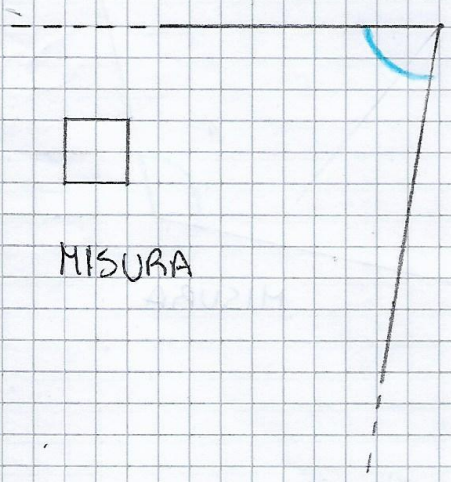
MISURA

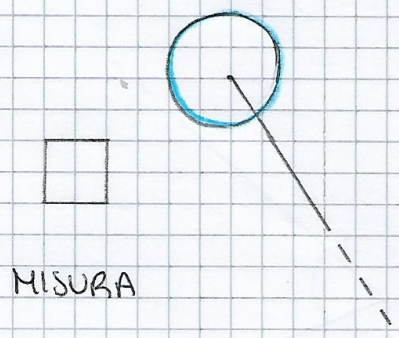
MISURA

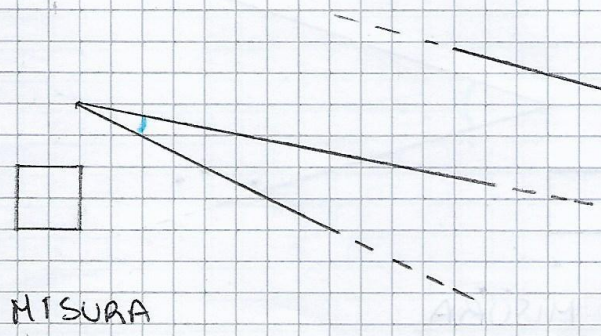
MISURA

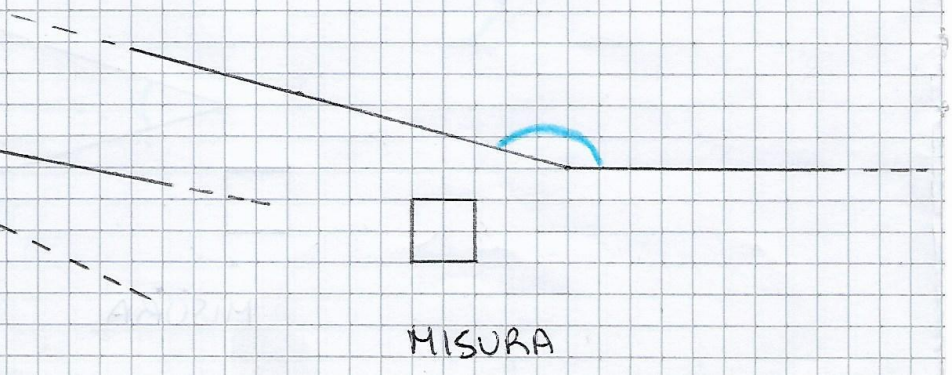
MISURA

Inglese

- Ascolta l'audio con la spiegazione dell'insegnante.
- Ripassa sul Lapbook l'alfabeto (per la pronuncia puoi rivedere l'attività sul quaderno della settimana scorsa o il video del libro) e gli animali.
- Ripassa i vocaboli di pag.52 e 53 in "The story garden" e completa gli esercizi di pag. 129 e 130 (aiutati con le tabelle che ti ricordano la forma affermativa, negativa e interrogativa di CAN e le possibili risposte affermative e negative).

VENERDI' 1 MAGGIO

Il **1 Maggio** nasce come momento di lotta internazionale di tutti i lavoratori, senza barriere geografiche, né tanto meno sociali, per affermare i propri diritti, per raggiungere obiettivi, per migliorare la propria condizione.

RIFERIMENTI … PER INVIARE I TUOI LAVORI

Silvia Degli Antoni: degliantoni@cdpav.com

Tatiana Ferrarini: ferrarini@cdpav.com