	CARI BAMBINI ,CIAO !!! **QUESTA SETTIMANA PREVEDE LA SETTIMANA FINO A GIOVEDI' , MA QUESTO NON TOGLIE CHE NON DOBBIATE IMPEGNARVI .** **ABBIAMO INTRODOTTO MEET DI VIDEOLEZIONE E LAVOREREMO INSIEME !** **CI VEDIAMO PRESTO !** **VI VOGLIAMO BENE ! NON DIMENTICATELO**

CLASSE 3 °G

RICORDA …NON E' NECESSARIO FOTOCOPIARE NULLA , PUOI LEGGERE ED ESEGUIRE SUL QUADERNO O SU UN FOGLIO !

LUNEDÌ 27 APRILE

Italiano

VERIFICA : ASCOLTO E COMPRENSIONE

- ASCOLTA IL VIDEO /AUDIO CHE HO INVIATO SU WATHSAPP, POI RISPONDI ALLE DOMANDE N.B. Ricorda di riprendere le domande nelle risposte

La festa di compleanno

1. Cosa hanno trovato Tommy ed Annika nella cassetta della posta ?
2. Come è scritto il biglietto ? In modo corretto o con tanti errori ortografici ?
3. Perché Pippi non sa scrivere molto bene ?
4. Cosa fanno i due fratelli appena tornati a casa ?
5. Dove si svolge la festa di compleanno di Pippi ?
6. Quali preparativi aveva fatto Pippi ?
7. Chi erano gli altri invitati alla festa ?
8. Cosa regalano a Pippi i due fratellini ?
9. Cosa regala Pippi ai due amici ?
10. Ti è piaciuto questo testo ? Perché ?

- **Leggi a voce alta pag. 15 PERCORSI**

MATEMATICA

OGGI LAVORIAMO INSIEME IN UN MEET QUESTA MATTINA E OGGI POMERIGGIO SECONDO QUESTA SCANSIONE.

ORE 11.00 PIETRO – GAIA- ALESSIA C. – NICCOLO' – BILAL – SOFIA – LORENZO- ALESSIA P-. GIOVANNA-CHRISTIAN-ANGELO-RICCARDO-ALESSIA C.

POMERIGGIO:
ORE 17.00 MARTINA- INAS- EVA- GIACOMO – SOFIA- BEA-GIULIO-VIOLA-LAURA

RICORDA : insiemeterzag

- Leggi e completa la pag.51 di Nuvola Verde

Calcola la frazione dei seguenti numeri:

Es: $\frac{4}{7}$ di $56 = (56:7) \times 4 = 8 \times 4 = 32$ $\frac{4}{7}$ di 56 è 32

$\frac{3}{5}$ di $45 =$

$\frac{5}{9}$ di $90 =$

$\frac{4}{6}$ di $42 =$

$\frac{2}{7}$ di $28 =$

$\frac{6}{9}$ di $45 =$

$\frac{7}{8}$ di $64 =$

$\frac{3}{5}$ di $40 =$

$\frac{5}{6}$ di $18 =$

$\frac{4}{9}$ di $72 =$

$\frac{5}{8}$ di $48 =$

$\frac{2}{5}$ di $35 =$

RICOPIA

Risolvi il problema COMPLETA

Emma sta leggendo un libro di 120 pagine.
Finora ha letto i $\frac{2}{6}$ del libro.
Quante pagine ha già letto?

Risolvo

DATI

120 = pagine di un libro
$\frac{2}{6}$ di 120 = pagine lette

Devo trovare le pagine già lette

$\frac{2}{6}$ di 120 = (120 : _) x _ = 20 x _ = p. lette

120 | 6
00 | 20
0

Risposta

Emma ha già letto pagine

Ora prova tu

Problema

Rita compra una scatola che contiene 36 biscotti e ne mangia $\frac{3}{4}$.
Quanti biscotti ha mangiato Rita?

Storia ....

VERIFICA

- Dovresti aver studiato bene lo schema .
- Ora prendi le domande seguenti e rispondi oralmente : mandami un video entro mercoledì 29

1. Come si presenta fisicamente l'Homo Sapiens?
2. Dove viveva ?
3. Come si nutriva ?
4. Cosa facevano gli uomini?
5. E le donne e i bambinì?
6. Come comunicava ?
7. Cosa indossava ?
8. Cosa costruiva con le ossa degli animali ?
9. Quando moriva qualcuno , cosa faceva ?

- Ora entriamo nel dettaglio : leggi molto bene e completa pag44 . 45

MARTEDI' 28 APRILE

Italiano

GRAMMATICA

SE PUOI STAMPA E COLORA SOLO I RIQUADRI CHE CONTENGONO AGGETTIVI QUALIFICATIVI .

SE NON PUOI STAMPARE , NON TI PREOCCUPARE , RISCRIVI UNO DI FIANCO ALL'ALTRO SUL Q. GLI AGGETTIVI QUALIFICATIVI .

RIPASSIAMO GLI AGGETTIVI QUALIFICATIVI

- Riscrivi la frase rimettendo in ordine le parole. Poi cerchia in rosso il PREDICATO e in verde il SOGGETTO . Metti la lettera maiuscola all'inizio della frase
  1. fra i scimmie saltano rami della le giungla
  2. poltrona si il acciambella gatto sulla nonna della
  3. con la nuova mio bicicletta fratello in giocava sua giardino
- Riscrivi completando le frasi con un PREDICATO VERBALE adatto (cosa fa?)
  1. Il ciclista
  2. La mamma
  3. Giulia
  4. I pesci
  5. L'arbitro
  6. Le rondini

- Riscrivi le frasi collegando a ogni soggetto il PREDICATO NOMINALE adatto (Chi è? Com'è? Cos'è?)

La bambina	sono bianche
Il pagliaccio	è veloce
Le tartarughe	è matura
La mela	è simpatica
Le nuvole	è buffo
Il ghepardo	sono lente

- Riscrivi completando con un PREDICATO VERBALE(COSA FA?) e un PREDICATO NOMINALE (Chi è? Com'è? Cos'è?)

LA MAESTRA – IL FORNAIO – IL PULEDRO – GIACOMO – L'AQUILONE – I DELFINI

Esempio .

Il fornaio impasta

Il fornaio era veloce

- LEGGI a voce alta PAG . 16 PERCORSI

Matematica

I centesimi

RICOPIA



→ È un intero o unità (u)



È un intero diviso in 10 parti
→ uguali, ho colorato una delle
10 parti
cioè $\frac{1}{10} = 0,1$

u,	d
0 ,	1

È un intero diviso in 100 parti
uguali. Ho colorato una delle
→ 100 parti
cioè $\frac{1}{100} \rightarrow 0,01$

u,	d	c
0 ,	0	1

Il simbolo del centesimo è © e occupa
questa posizione:

uK	h	da	u,	d	c

STUDIARE

RICOPIA

Colora e scrivi la frazione e il numero decimale corrispondente

Es:

$\frac{4}{100}$



$\frac{4}{100} \rightarrow$ u, d c
0, 0 4



$\frac{9}{100} \rightarrow$ u, d c
0, 0 9



$\frac{5}{100} \rightarrow$ u, d c

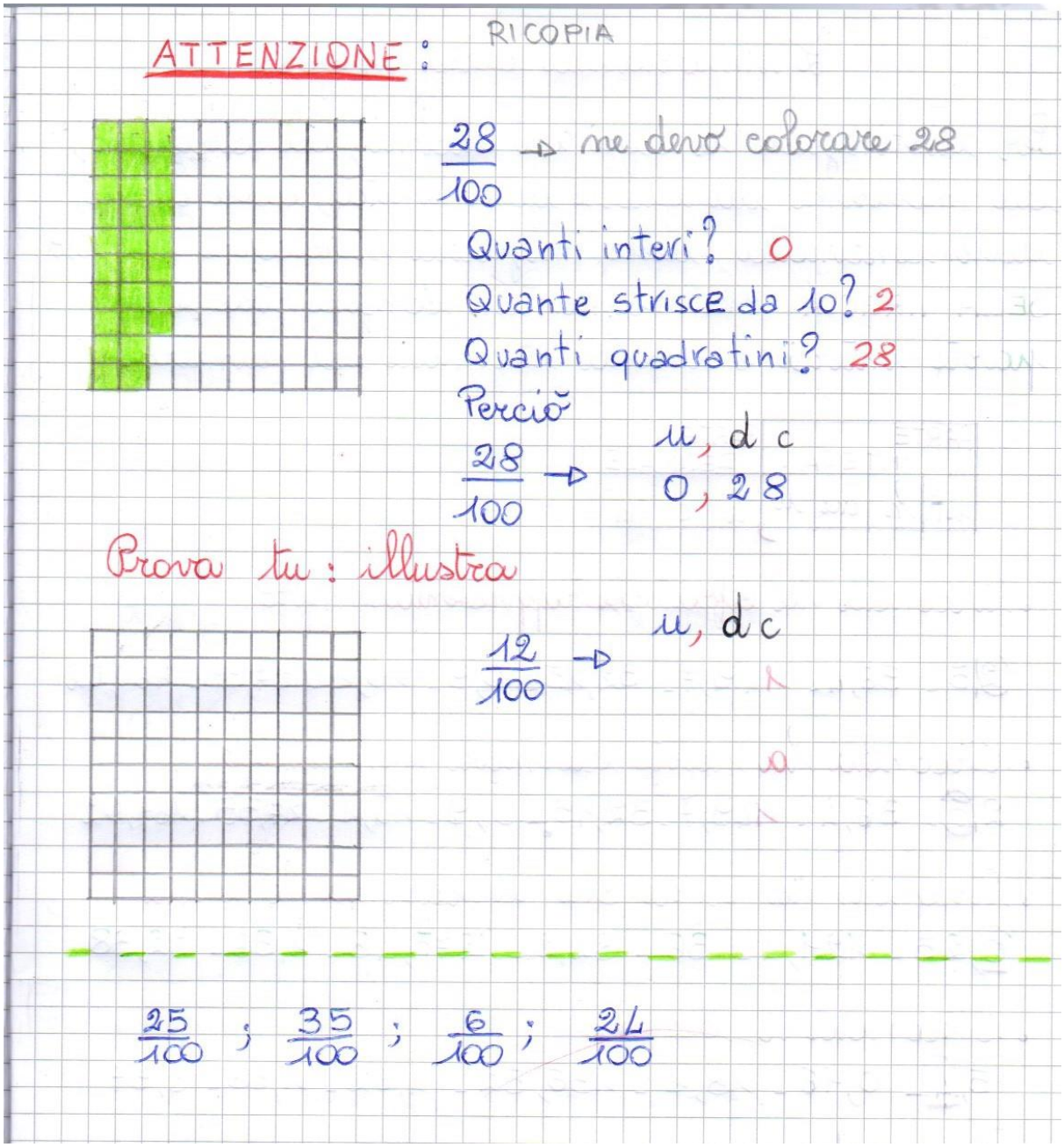

- Se riesci...ripassa le tabelline

SCIENZE

QUESTA ATTIVITÀ LA PUOI CONSEGNARE MARTEDÌ 12 MAGGIO

- Leggi con attenzione pag. 140 e 141 di Nuvola Verde.

- Scrivi sul quaderno di scienze la mappa concettuale.

GLI ANIMALI SI ADATTANO ALLE CONDIZIONI CLIMATICHE DEI DIVERSI TIPI DI AMBIENTE

perché

MODIFICANO IL LORO CORPO E LE LORO ABITUDINI DI VITA

infatti

NEGLI AMBIENTI FREDDI

vivono

ANIMALI CHE HANNO SVILUPPATO FOLTE PELLICCE O FITTI PIUMAGGI E SOTTO LA PELLE HANNO SPESSI STRATI DI GRASSO PER PROTEGGERSI DAL FREDDO E COME RISERVA DI ENERGIA QUANDO C'È POCO CIBO.

ALCUNI ESEMPI:

- LA VOLPE ARTICA HA ORECCHIE MOLTO PICCOLE PER NON DISPERDERE CALORE.
- L'ORSO POLARE HA STRATI DI GRASSO E UNA FOLTA PELLICCIA.
- LA CIVETTA DELLE NEVI HA IL BECCO RICOPERTO DI PIUME PER NON RESPIRARE ARIA GELIDA.

NEGLI AMBIENTI FREDDI SOLO D'INVERNO

GLI ANIMALI SOPRAVVIVONO:

- INFOLTENDO IL PELO
- ANDANDO IN LETARGO
- MIGRANDO VERSO LUOGHI PIÙ CALDI.

infatti

NEGLI AMBIENTI CALDI E ARIDI

vivono

ANIMALI CHE CERCANO RIPARO DAL CALORE E RICERCANO L'ACQUA CHE SCARSEGGIA.

ALCUNI ESEMPI:

- ALCUNE SPECIE DI LUCERTOLE E CHIOCCIOLE CHE SI SVEGLIANO DAL SONNO (QUASI LETARGO) SOLO QUANDO PIOVE PER POI RIADDORMENTARSI QUANDO SMETTE.
- ALCUNE SPECIE DI UCCELLI CHE SI SPOSTANO OGNI GIORNO PER CERCARE ACQUA NELLE OASI.
- ALTRE SPECIE DI UCCELLI CHE SI SONO ABITUATI A BERE L'ACQUA SALATA.
- FENEC o LA VOLPE DEL DESERTO HA ORECCHIE MOLTO LUNGHE PER DISPERDERE IL CALORE DEL CORPO.
- IL DROMEDARIO HA DELLE SACCHE NELLA PANCIA IN CUI IMMAGAZZINA ACQUA PER RESISTERE ALLA SETE PER GIORNI, HA UNA RISERVA DI GRASSO NELLA GOBBA COME ENERGIA PER QUANDO NON TROVA CIBO.

MERCOLEDÌ 29 APRILE

Italiano

- RICOPIA

LA DESCRIZIONE DI UN OGGETTO

- Leggi il testo . **NON COPIARE** .
- Poi ricopia e colora correttamente il disegno che meglio rappresenta l'oggetto descritto

LA CAFFETTIERA

La caffettiera è di **maiolica** marrone .
E' costituita da un globo che culmina in un filtro cilindrico fornito di coperchio a fungo .
Il becco è una esse dalle curve schiacciate , un po' panciuto alla base .
Il manico ha la forma dell'orlo esterno di un orecchio mal fatto , troppo arrotondato .
Il becco e il fungo del coperchio sono color panna . Tutto il resto è marrone chiaro molto compatto e lucido .



Maiolica : ceramica smaltata , verniciata

- Ora scegli un oggetto della tua cucina o della tua casa , disegnalo e descrivilo indicando : che cos'è , com'è fatto , a cosa serve , da chi e quando viene utilizzato

Matematica

- Esegui pag.52 Nuvola Verde.
- Calcola con la prova.

7 429 + 134 + 5 = 49 x 78 =

8 000 - 5 439 = 4 906 : 9 =

GEOMETRIA

- Se riesci stampa la scheda altrimenti completa la tabella.

angolo	n.1	n.2	n.3	n.4	n.5	n.6	n.7
misura							

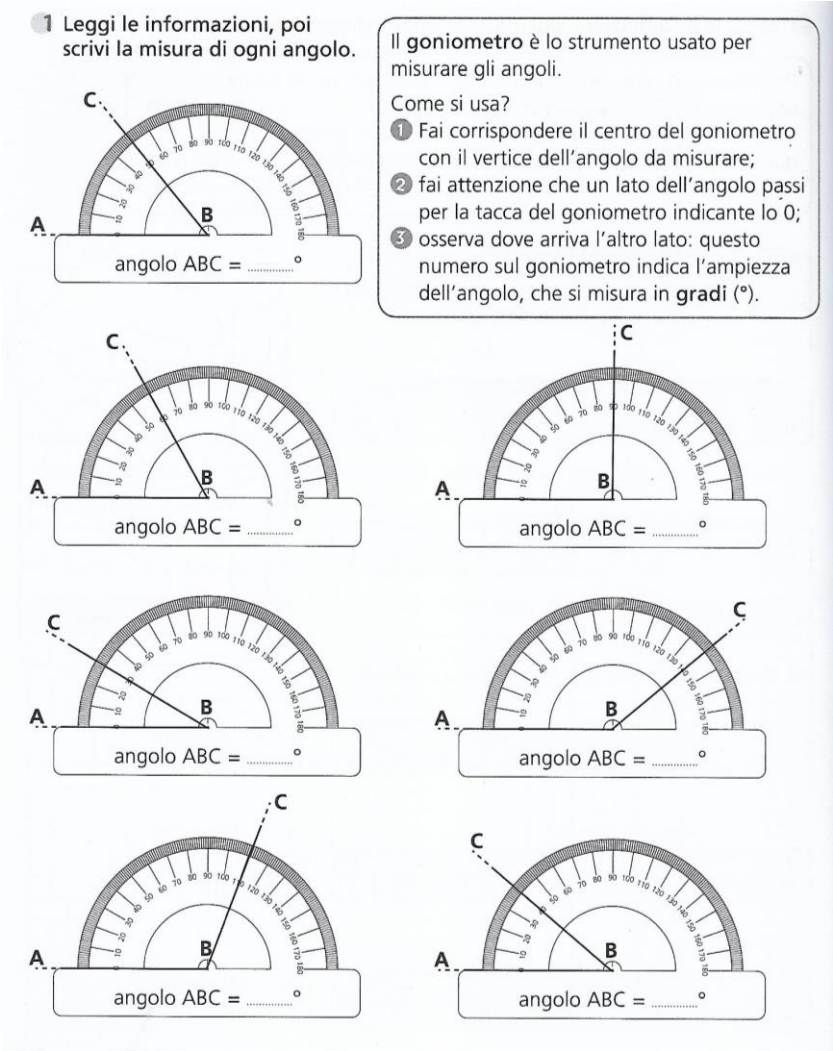

- Puoi ricopiare gli angoli o stampare la scheda

Misura gli angoli usando il goniometro e scrivi A se è acuto, O se è ottuso, R se è retto, G se è giro, P se è piatto.

Es.

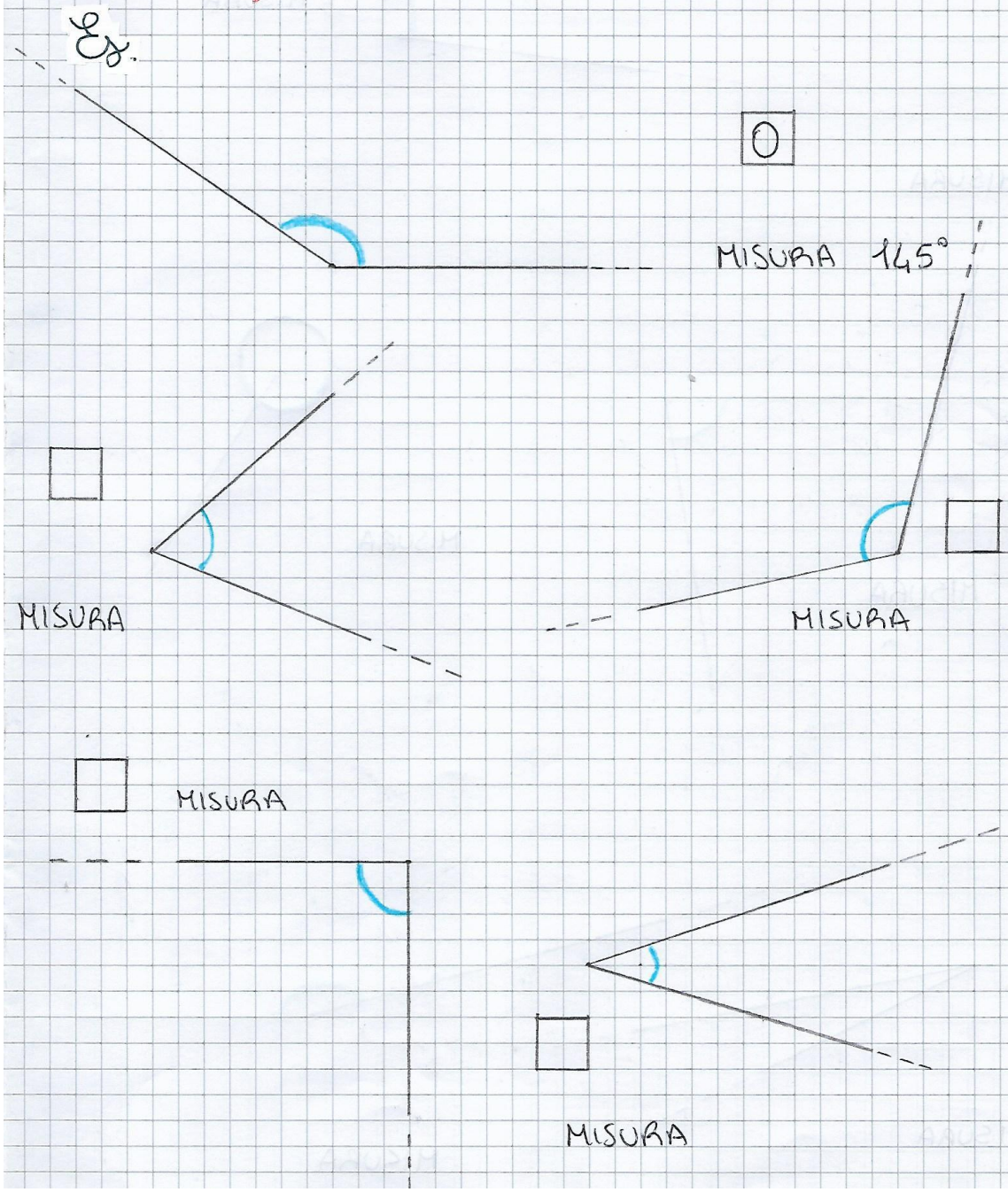

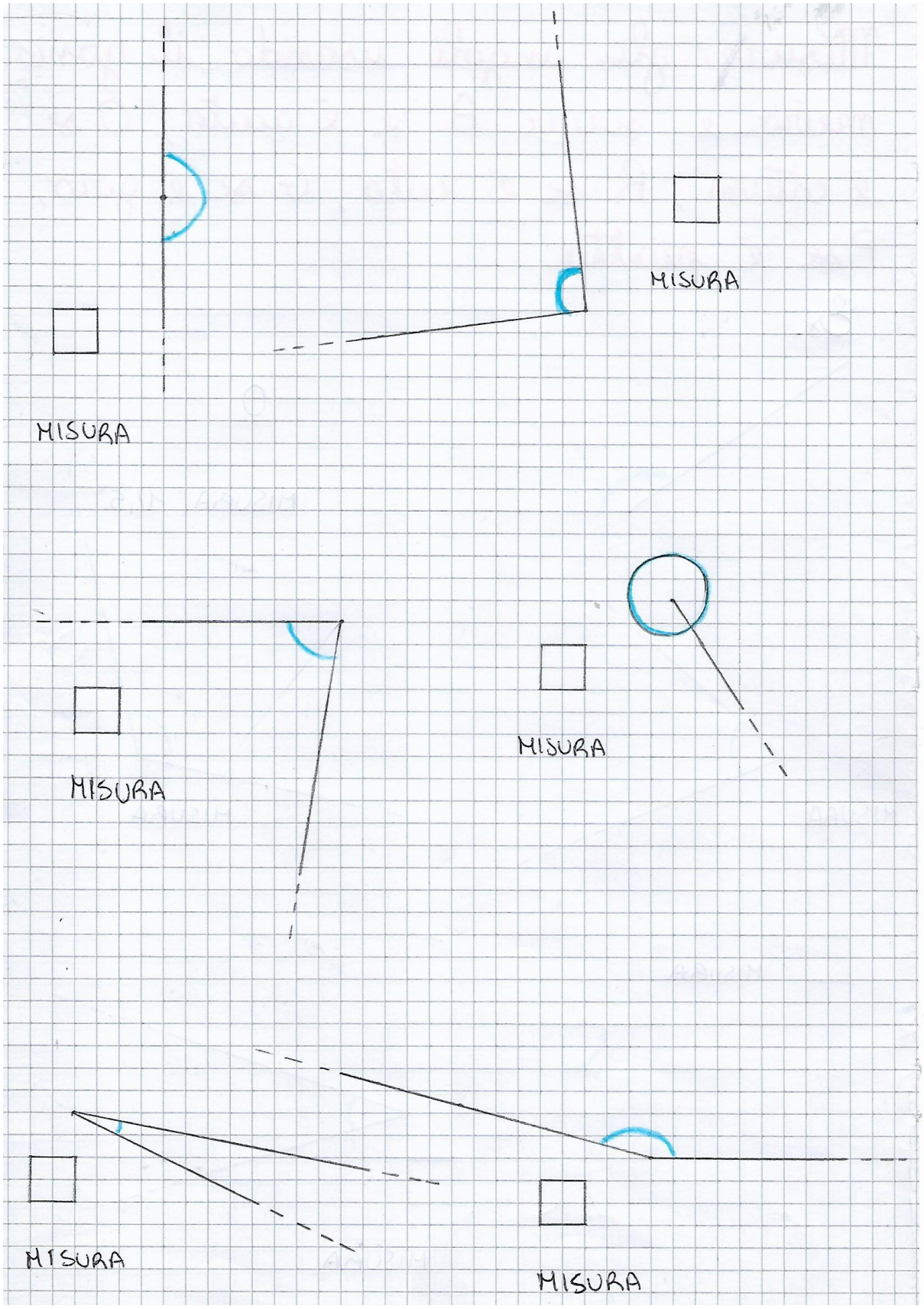

- Se riesci cerca la risposta esatta

Geografia ….

- Rispondi alle domande della verifica sul q. e mandami le foto ENTRO MERCOLEDI' 6 MAGGIO
- **esegui pag . 199 e completa le seguenti domande _ VERIFICA**

1. Il lago costiero si è formato in una valle?

2. Il lago vulcanico si è formato nel cratere di un vulcano spento?

3. Com'è il clima del lago ?

4. L'acqua del lago è salata?

5. Sui fiumi si costruiscono dighe per alimentare le centrali idroelettriche?

6.Come si chiamano i corsi d'acqua che entrano ed escono da un lago ?

7.Quali piante crescono sulle rive del lago ? E nel lago ?

8.Quali animali crescono fuori e dentro il lago ?

9. A cosa servono le centrali idroelettriche ?

GIOVEDI' 30 APRILE

Italiano

GRAMMATICA

OGGI LAVORIAMO INSIEME IN UN MEET QUESTA MATTINA E OGGI POMERIGGIO SECONDO QUESTA SCANSIONE.

ORE 11.00 PIETRO – GAIA- ALESSIA C. – NICCOLO' – BILAL – SOFIA – LORENZO- ALESSIA P-. GIOVANNA-CHRISTIAN-ANGELO-RICCARDO-ALESSIA C.

POMERIGGIO:
ORE 17.00 MARTINA- INAS- EVA- GIACOMO – SOFIA- BEA-GIULIO-VIOLA-LAURA

RICORDA : insiemeterzag

- SE RIESCI PRIMA RICOPIA :

RIPASSIAMO LE PERSONE DEL VERBO / PRONOMI PERSONALI

IO = PRIMA PERSONA SINGOLARE
TU = SECONDA PERSONA SINGOLARE
EGLI = TERZA PERSONA SINGOLARE

NOI = PRIMA PERSONA PLURALE
VOI= SECONDA PERSONA PLURALE
ESSI= TERZA PERSONA PLURALE

- SALTA UNA PAGINA E COPIA

CONIUGAZIONI PROPRIE : ESSERE

IL VERBO ESSERE VIENE USATO NEL SIGNIFICATO PROPRIO (esistere,stare,trovarsi) O COME AUSILIARE NELLA FORMAZIONE DEI TEMPI COMPOSTI DI ALTRI VERBI

- ORA LAVORIAMO INSIEME . A DOPO !!

- LEGGI a voce alta PAG. 23 LETTURE

Matematica

L'importanza della virgola

Per distinguere le cifre dei decimi, dei centesimi, dei millesimi da quelle delle unità, delle decine, delle centinaia, delle migliaia si ricorre all'uso DELLA VIRGOLA che segna un confine tra la parte intera e quella decimale del numero.

PARTE INTERA				PARTE DECIMALE		
uK	h	da	u,	d	c	m

- Circonda la parte intera del numero

2,5 - 36,4 - 149,7 - 32,15 - 0,9 - 10,1 - 27,35 - 161,02

- Circonda la parte decimale del numero

2,5 - 36,4 - 149,7 - 32,15 - 0,9 - 10,1 - 27,35 - 161,02

- Circonda la cifra che rappresenta le unità

0,25 - 121,4 - 36 - 82,2 - 1275,48 - 1,36 - 22,38

- Circonda i decimi

5,4 - 0,16 - 18,1 - 136,52 - 4,62 - 1,38 - 8,97

- Circonda i centesimi

7,42 - 12,35 - 0,54 - 121,36 - 0,64 - 13,21 - 7,84

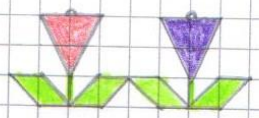

Scomponi

1,5 = 1u - 5d

12,45 =

0,36 =

132,50 =

1277,5 =

8,32 =

9,4 =

62,28 =

3,22 =

1280,37 =

36,26 =

45,8 =

0,06 =

81,24 =

2876,35 =

18,40 =

36,85 =

CALCOLA

$\frac{5}{4}$ di 28 =

$\frac{6}{5}$ di 50 =

$\frac{2}{8}$ di 16 =

$\frac{3}{7}$ di 42 =

$\frac{4}{6}$ di 30 =

$\frac{1}{8}$ di 40 =

- Attenzione alla domanda nascosta, individua la domanda e risolvi sul quaderno.

Problema

La mamma ha vinto 50 euro in buoni acquisto. Ha già speso 46 euro.

……..(domamda)

Con la somma restante vuole acquistare delle bibite che costano 2 euro ciascuna.

Quante bibite potrà acquistare?

VENERDI' 1 MAGGIO

PASSAGGIO SEGRETO

COMPLETA, COLORA E RITAGLIA IL PASSAGGIO SEGRETO. QUESTA È LA PORTA DEL TUO PASSAGGIO SEGRETO, INCOLLALA DOVE VUOI.

→ DOVE VORRESTI CHE TI PORTASSE IL TUO PASSAGGIO SEGRETO?

→ DA CHI?

PER SBUCARE AL MARE!



PER SBUCARE IN MONTAGNA



PER SBUCARE DA UNA PERSONA



PER SBUCARE AL PARCO

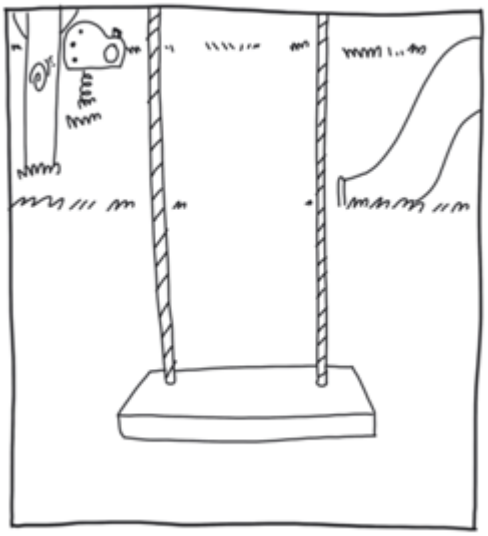

RICORDA...E' UN'ATTIVITA' FACOLTATIVA...IN QUESTI GIORNI DI CHIUSURE FORZATE, LUNGHE PERMANENZE IN CASA, IMPOSSIBILITA' AD INCONTRARE AMICI, ZII, NONNI...CON LA FANTASIA PUOI IMMAGINARE DI APRIRE UNA PORTICINA MAGICA E ANDARE LIBERAMENTE DOVE VUOI...SE TI VA, PUOI FARCI VEDERE IL TUO LAVORO E FARCI LEGGERE COSA HAI SCRITTO.