3B DE AMICIS

ATTIVITA' PER LA SETTIMANA DAL 20 AL 24 APRILE 2020

RICORDA NON E' NECESSARIO STAMPARE O FOTOCOPIARE , PUOI LEGGERE ED ESEGUIRE GLI ESERCIZI SUI QUADERNI.

Ciao bambini, per non perdere l'allenamento dovrete fare delle attività interessanti anche questa settimana. Vi consiglio di iniziare a svolgere le attività al mattino, così poi il pomeriggio sarete liberi di fare ciò che più vi piace. Cercate di fare le attività da soli, ci riuscite così come riuscivate a fare tutto in classe, senza l'aiuto di mamma e papà. Forza bimbi, siete bravissimi ☺

LUNEDI' 20

ITALIANO

Lettura e comprensione.

LIBRO AZZURRO: pag.19, leggi e comprendi il testo, L'ASINO E LA SUA OMBRA.
Sul quaderno dei testi riscrivi le domande e rispondi per esteso.

(invia la foto quando finisci di fare l'attività).

MATEMATICA

-Ricopia, esegui in colonna le seguenti operazioni e poi fai la prova:

370+11+6= **550-225=**

88x9= **215:7=**

(esegui le operazioni con ordine: piega la pagina in due, su un lato fai l'operazione e sull'altro fai la prova)

-Ricopia ed esegui in riga le seguenti operazioni:

550x10= **72000:1000=**

230x100= **1400:100=**

98x1000= **60:10=**

-Leggi ed osserva attentamente le immagini sui decimi, poi ricopia gli esercizi sul quaderno e svolgili ordinatamente.

Per capire meglio immaginiamo di ingrandire la linea dei numeri di un righello con una lente di ingrandimento.



Proviamo ...

Soffermiamoci sullo spazio fra i numeri 0 e 1 e lavoriamo su questo tratto.

Dividiamo questo spazio in 10 parti-

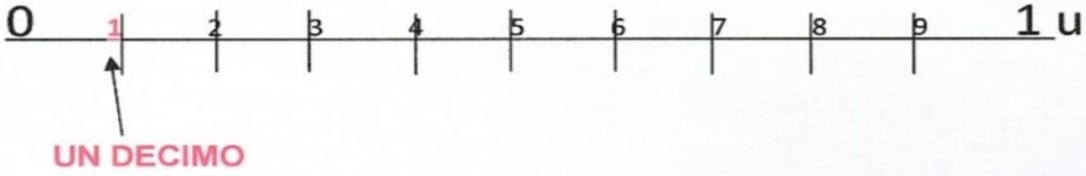

Abbiamo diviso/frazionato questa parte in $\frac{10}{10}$.

Ognuna di queste parti si chiama "un decimo" e si indica con la lettera **d.**

Osserva:

L'intero è stato frazionato in 10 parti uguali.

E' stata colorata una parte su 10, cioè $\frac{1}{10}$ un decimo.

Quanti interi sono stati colorati? 0

Quanti decimi sono stati colorati? 1

Il decimo è la decima parte dell'intero, dieci/decimi formano l'intero/unità.

Sul quaderno:

- Cerchia le frazioni decimali

$\frac{2}{10}$ $\frac{2}{5}$ $\frac{10}{10}$ $\frac{10}{8}$ $\frac{1}{10}$ $\frac{2}{10}$ $\frac{2}{12}$ $\frac{9}{10}$ $\frac{3}{10}$ $\frac{4}{8}$

Completa il testo

L'intero è stato ..... In 10 parti..... .

È stata colorata ..... parte su ..... cioè un $\frac{1}{10}$

che si legge ..... .

(invia la foto per correzione quando finisci di eseguire)

STORIA

Leggi e sottolinea pag. 50-51-52 e 53.

Leggi più volte e studia benissimo pag. 54 e poi inviami un video in cui spieghi le differenze tra l'homo habilis,erectus e sapiens.

(invia le foto ed il video in giornata)

Ripeti giocando, per giocare clicca qui :https://www.gliantiruggine.it/classe3/homepage.html?esercizio=d31sto1c

MARTEDI' 21

ITALIANO

-LIBRO AZZURRO: Ripeti a pag.114 il verbo essere.

-Ricopia sul quaderno di grammatica questo schema.

I TEMPI DEI VERBI

TEMPO PRESENTE: indica un'azione che succede ora. Es: Io sono a casa.

TEMPO IMPERFETTO: indica un'azione che si ripete o si prolunga nel passato. Es: Io ero più basso l'anno scorso.

TEMPO PASSATO : indica un'azione che è successa poco o tanto tempo fa. Es: Io fui felice quando andai a sciare.

TEMPO FUTURO: indica un'azione che accadrà tra poco o tra molto tempo. Es: Io sarò bravo se oggi finirò tutti i compiti al mattino.

-LIBRO AZZURRO: Studia benissimo, leggendo e ripetendo a voce alta i tempi semplici del verbo essere a pag.141: presente, imperfetto,passato remoto,futuro semplice.

-Ricopia sul quaderno di grammatica questo schema ed imparalo benissimo

VERBO ESSERE	VERBO ESSERE	VERBO ESSERE	VERBO ESSERE
PRESENTE	IMPERFETTO	PASSATO REMOTO	FUTURO SEMPLICE
IO SONO	IO ERO	IO FUI	IO SARÒ
TU SEI	TU ERI	TU FOSTI	TU SARAI
EGLI È	EGLI ERA	EGLI FU	EGLI SARÀ
NOI SIAMO	NOI ERAVAMO	NOI FUMMO	NOI SAREMO
VOI SIETE	VOI ERAVATE	VOI FOSTE	VOI SARETE
ESSI SONO	ESSI ERANO	ESSI FURONO	ESSI SARANNO

-Riscrivi queste frasi sul quaderno di grammatica e completale usando il tempo giusto del verbo essere, se fai attenzione al <u>soggetto</u> vedrai che sarà molto semplice.

1)Oggi …..il primo giorno di primavera.

2)Quando…..in montagna ti scriverò.

3)Faceva caldo ma l'acqua…..fredda.

4)Loro……molto felici quando ci videro.

(invia la foto quando finisci)

MATEMATICA

-Riscrivi la traccia ed esegui sul quaderno il seguente problema:

Un libro ha 820 pagine e ne ho già lette 580. Quante pagine mi rimangono da leggere? Per finirlo in 6 giorni, quante pagine devo leggere ogni giorno?

- Leggi a voce alta e osserva bene l'esempio di pag. 50.

-Poi esegui a pag.51 gli esercizi 2-3-4.

(invia la foto non appena finisci)

SCIENZE

Leggi, sottolinea e studia pag.134.

MERCOLEDI' 22

ITALIANO

LIBRO AZZURRO: leggi pag. 157, segui le indicazioni e sul quaderno dei testi scrivi un testo dal titolo: UNA FESTA DI COMPLEANNO.

(Parla di una festa di compleanno a cui sei stato,se ti sei divertito tanto, descrivi i giochi a cui hai partecipato, la torta, gli invitati, tutto ciò che ti ha colpito e che ancora ricordi. Puoi anche descrivere e raccontare la tua festa di compleanno).

(invia la foto non appena hai finito)

MATEMATICA

-Esegui in colonna sul quaderno le seguenti operazioni e poi fai la prova.

168+31+12= 200-11=

134x3= 224:4=

-Esegui in riga sul quaderno le seguenti operazioni.

327x10= 250x100= 37x1000=

890:10= 9100:100= 89000:1000=

(invia la foto quando finisci)

- Leggi ed osserva attentamente le immagini sul centesimo, poi ricopia gli esercizi sul quaderno e svolgili ordinatamente.

Ecco la linea dei numeri divisa in decimi.

0 1 2 3 4 5 6 7 8 9 1 1 2 3 4 5 6 7 8 9 2 1 2 3 4 5 6

immaginiamo di ingrandire ancora con una lente di ingrandimento lo spazio tra 0 e 1 decimo.

Soffermiamoci sullo spazio fra i numeri 0 e 1decimo e lavoriamo su questo tratto.

Posso dividere lo spazio in altre 10 parti che chiamerò CENTESIMI.

0 1 2 3 4 5 6 7 8 9 1

UN CENTESIMO

0 1 2 3 4 5 6 7 8 9 1 centesimi

Abbiamo diviso/frazionato questa parte in $\frac{100}{100}$.

Ognuna di queste parti si chiama "un centesimo" e si indica con la lettera **c.**

Osserva:

L'intero è stato frazionato in 100 parti uguali.

0 1 2 3 4 5 6 7 8 9 1 centesimi

Abbiamo diviso/frazionato questa parte in $\frac{100}{100}$.

Ognuna di queste parti si chiama "un centesimo" e si indica con la lettera **c.**

Osserva:

L'intero è stato frazionato in 100 parti uguali.

E' stata colorata una parte su 100, cioè $\frac{1}{100}$ un centesimo.



Quanti interi sono stati colorati? **0**

Quanti decimi sono stati colorati? **0**

Quanti centesimi sono stati colorati? **1**

Il centesimo è la centesima parte dell'intero, cento/centesimi formano l'intero/unità.

Sul quaderno:

- Cerchia le frazioni decimali

$\frac{2}{100}$ $\frac{2}{5}$ $\frac{10}{100}$ $\frac{10}{8}$ $\frac{1}{100}$ $\frac{2}{100}$ $\frac{2}{12}$ $\frac{9}{100}$ $\frac{3}{100}$ $\frac{4}{8}$

- Completa il testo

L'intero è stato ..... In 100 parti..... .

È stata colorata ..... parte su ..... cioè un $\frac{1}{100}$

che si legge ..... .

(invia la foto quando finisci)

GEOGRAFIA

-Ripeti il lago a pag.122-123.

-Leggi e studia bene pag.124 e poi rispondi oralmente alle domande, mentre rispondi alle domande registrati e poi inviami il video.

(invia la foto ed il video in giornata)

GIOVEDI' 23

ITALIANO

-LIBRO AZZURRO: leggi più volte pag. 136 e pag.137 così ripeti il predicato verbale e nominale.

-Ricopia sul quaderno di grammatica e poi completa ogni frase inserendo il predicato verbale, ti ricordo che indica cosa fa il soggetto.

1) I pesci……..nel mare profondo.

2) I calciatori……dietro al pallone.

3)I bambini…….in gita al museo dei fossili.

- Sottolinea nelle frasi il predicato nominale.

1)I gatti sono dormiglioni.

2) La frutta è fresca e buona.

3) Il cielo è azzurro stamattina.

-Ricopia sul quaderno queste frasi e fai l'analisi grammaticale e logica, osserva benissimo l'esempio.

ESEMPIO: Mio padre nuota in piscina.

ANALISI GRAMMATICALE

Mio: aggettivo possessivo

Padre: nome comune di persona, maschile, singolare, concreto, primitivo.

Nuota : verbo nuotare, 1 coniugazione, 3 persona singolare, tempo presente.

In: preposizione semplice

Piscina : nome comune di cosa, femminile, singolare, concreto, primitivo.

ANALISI LOGICA

Soggetto: mio padre

Predicato: nuota

FRASE MINIMA

Mio padre nuota

Queste sono le 2 frasi da analizzare

1)Le tue forbici sono sulla cattedra.

2)Il mio album di figurine è nello zaino.

(invia la foto quando finisci)

MATEMATICA

-Esegui le seguenti operazioni in colonna e poi fai la prova

200+28+5= **414-100=**

65x5= **496:7=**

-Riscrivi sul quaderno il problema ed eseguilo ordinatamente.

In un teatro ci sono 36 poltrone per ogni fila e le file sono in tutto29. Quanti sono i posti a sedere? Nella sala ci sono 615 spettatori. Quanti sono i posti liberi?

- Leggi ed osserva attentamente le immagini sui millesimi, poi ricopia gli esercizi sul quaderno e svolgili ordinatamente.

Immaginiamo di ingrandire ancora con una lente di ingrandimento lo spazio tra 0 e 1 centesimo.

Soffermiamoci sullo spazio fra i numeri 0 e 1 centesimo e lavoriamo su questo tratto.

Posso dividere lo spazio in altre 10 parti che chiamerò millesimi.

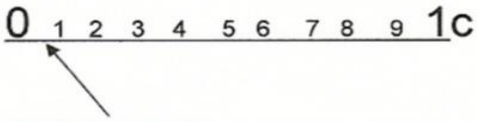

UN MILLESIMO

Il millesimo è la millesima parte dell'intero,mille/millesimi formano l'intero/unità.

Abbiamo diviso/frazionato questa parte in $\frac{1000}{1000}$.

Ognuna di queste parti si chiama "un millesimo" e si indica con la lettera **m.**

Osserva:

L'intero è stato frazionato in 1000 parti uguali.

E' stata colorata una parte su 1000, cioè $\frac{1}{1000}$ un millesimo.

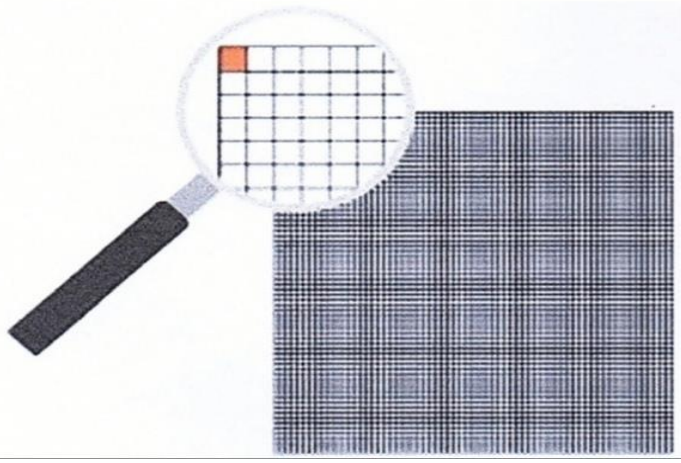

Quanti interi sono stati colorati? **0**

Quanti decimi sono stati colorati **0**

Quanti centesimi sono stati colorati? **0**

Quanti millesimi sono stati colorati? **1**

Il millesimo è la millesima parte dell'intero,mille/millesimi formano l'intero/unità.

Sul quaderno:

Cerchia le frazioni decimali

$\frac{2}{1000}$ $\frac{2}{5}$ $\frac{10}{1000}$ $\frac{10}{8}$ $\frac{1}{1000}$ $\frac{4}{8}$ $\frac{2}{1000}$ $\frac{2}{12}$

Completa il testo

L'intero è stato ..... In 1000 parti..... .

È stata colorata ..... parte su ..... cioè un $\frac{1}{1000}$

che si legge ..... .

(invia le foto alla maestra quando finisci)

VENERDI' 24

ITALIANO

I bambini dovranno scrivere il dettato ortografico sul quaderno di grammatica dal titolo: LA CASA SUL MARE.

Arriverà al mattino l'audio della maestra.

(invia la foto quando finisci)

MATEMATICA

-LIBRO VERDE: a pag. 53, ripeti bene ed osserva attentamente gli esempi della didascalia gialla, poi esegui gli esercizi 3 e 4.

(Invia la foto quando finisci)

GEOMETRIA

-LIBRO VERDE: ripeti a pag.79- 79 gli angoli.

-Ricopia sul quaderno di matematica questo schema sugli angoli.

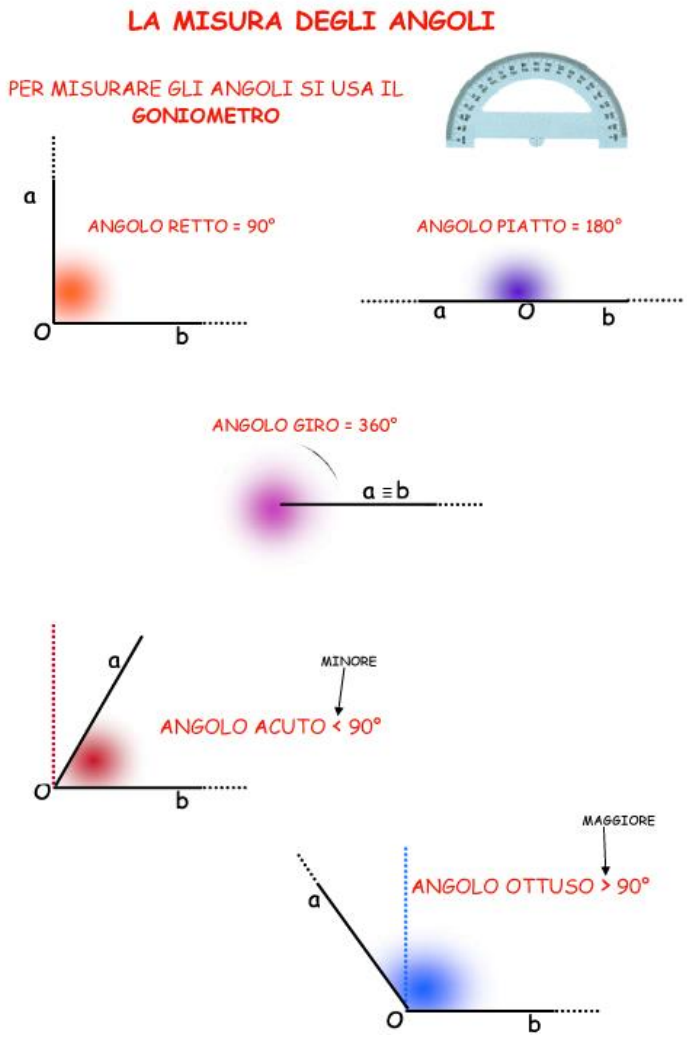

-Ricopia sul quaderno di matematica le seguenti domande e poi rispondi con vero (V) o falso (F).

1) Un angolo minore di 90° è detto acuto. V F

2) Un angolo maggiore di 90° è detto ottuso.

V F

3) Un angolo retto non misura 90°. V F

4)Un angolo piatto non misura 180°. V F

5)Un angolo giro misura 360°. V F

-Puoi vedere un video, cliccando qui di seguito, per esercitarti con il goniometro:

https://youtu.be/sJjHQ_5N9KQ

INGLESE

Cari bambini eseguite pag. 64 e 65 di Top Secret.

Se non avete il libro cliccate su questi link:

https://www.thinglink.com/scene/1304551537837604867

https://www.thinglink.com/scene/1304560320848592899

Buon lavoro! teacher Simona