CLASSE 3 A EDMONDO DE AMICIS ATTIVITÀ SETTIMANA DAL 20 AL 24 APRILE

Cari bambini, come di consueto vi abbiamo preparato le attività della settimana, cerchiamo come sempre di utilizzare al meglio il nostro tempo, sperando passi velocemente….Maggio è vicino, forza e coraggio!!!!

Ricordatevi ogni giorno che non vediamo l'ora di sentirvi, vedervi e abbracciarvi, lavorate con cura, attenzione e impegno, come se le insegnanti fossero vicino a voi durante ogni attività.

LE ATTIVITÀ' DI ARTE E INTERCULTURA SONO INDICATE AL VENERDÌ, MA LE PUOI ESEGUIRE QUANDO PREFERISCI

ITALIANO: Lettura e comprensione testo Manda audio con risposte e foto degli esercizi svolti	GRAMMATICA: Predicato verbale e nominale INVIERÒ IO foto per AUTOCORREZIONE	ITALIANO: Produzione scritta : CIAO. MI PRESENTO... entro venerdì inviare foto	GRAMMATICA: Verbo ESSERE e tempi semplici del modo indicativo Invia foto e audio con esercizi svolti	GRAMMATICA: Accento e apostrofo C'è, c'era, c'ero, c'erano Dettato Appena puoi invia foto o video con gli esercizi svolti
MATE: Esercizi di ripasso sulle frazioni Invia il lavoro svolto appena riesci	MATE: RICOPIA SPIEGAZIONE DELLA MAESTRA Dalla frazione decimale ai numeri decimali Invia il lavoro svolto appena riesci	MATE: Esercizi Invia il lavoro svolto appena riesci	MATE: Esercizi sul libro verde Invia il lavoro svolto appena riesci	MATE Esercizi sul libro verde GEOMETRIA video di spiegazione su come si misurano gli angoli ed esercizi Invia il lavoro svolto appena riesci
STORIA: HOMO HABILIS	SCIENZE: Invia un tuo video spiegando come si nutrono i vegetali/le piante.	GEOGRAFIA: IL FIUME Laboratorio e INTERROGAZIONE PROGRAMMATA	QUESTIONARIO SULLE ATTIVITA': Come ti sei sentito/a questa settimana? Come ti sono sembrate le attività? Se riesci invia un messaggio vocale alle maestre.	INGLESE: ASCOLTI INVIATI DALL'INSEGNANTE per chi non ha il cd ATTIVITÀ SUL LIBRO

LUNEDÌ 20 APRILE

Italiano

Ascolta e guarda il video con le spiegazioni delle attività

Leggi ed esegui tutti gli esercizi a pag. 18,19,20 e 21 del libro azzurro

Storia

Leggi almeno 5 volte a pag 35, 36 e 37 del libro giallo

Osserva con attenzione la seguente mappa e prova a verbalizzarla

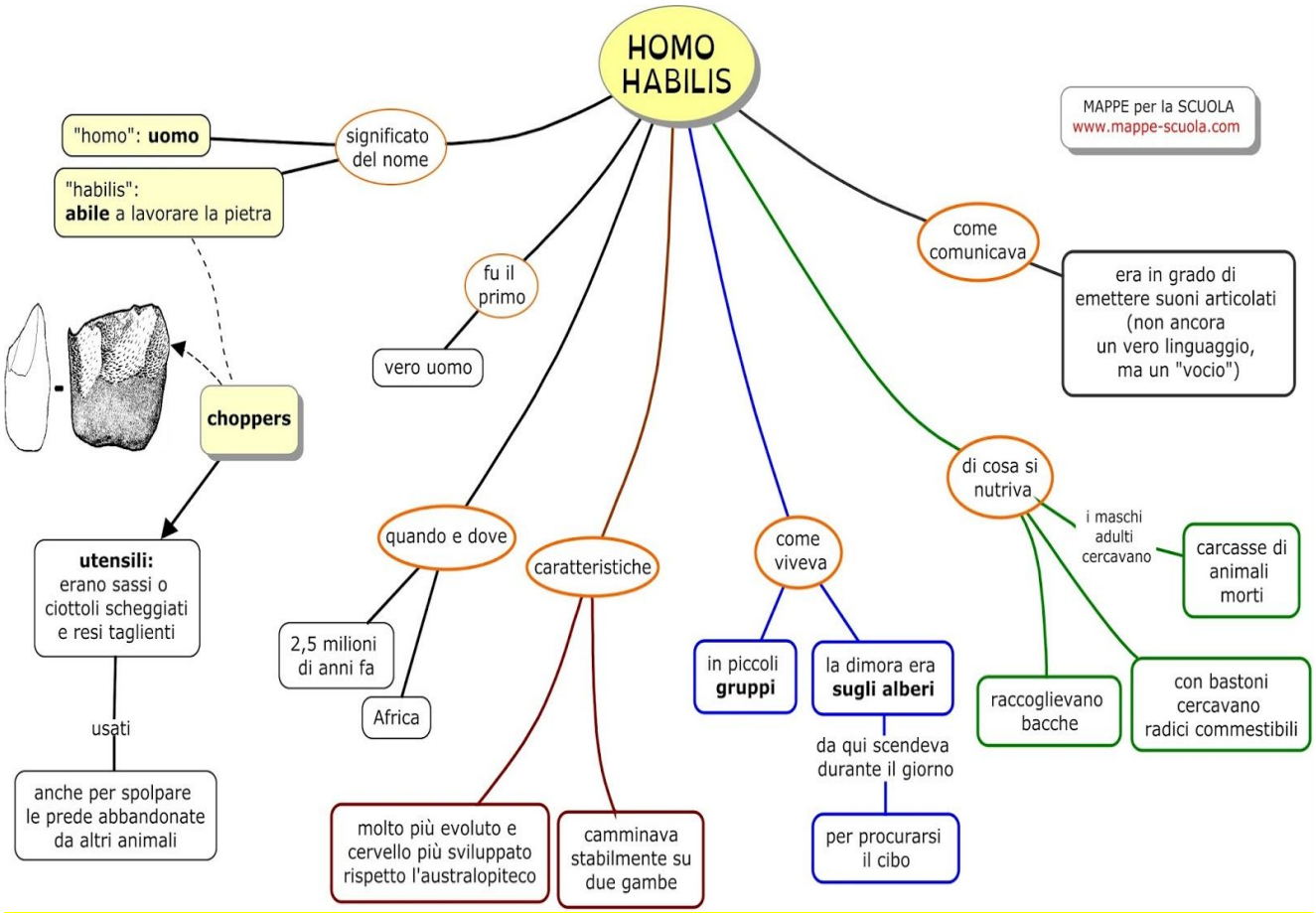

Matematica

Esercizio di ripasso sulle frazioni e sui calcoli in colonna.

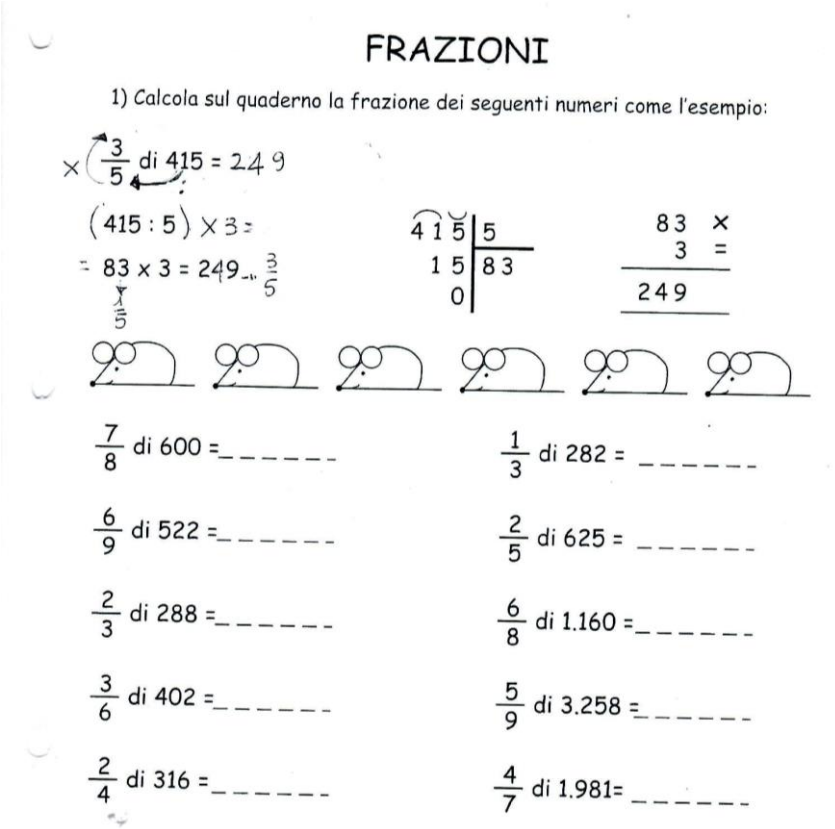

FRAZIONI

1) Calcola sul quaderno la frazione dei seguenti numeri come l'esempio:

$\times \left(\frac{3}{5}\right.$ di 415 = 249

(415 : 5) × 3 =

= 83 × 3 = 249 → $\frac{3}{5}$

$\times \frac{3}{5}$

415 | 5
15 | 83
0

83 ×
3 =
249

$\frac{7}{8}$ di 600 = _____

$\frac{1}{3}$ di 282 = _____

$\frac{6}{9}$ di 522 = _____

$\frac{2}{5}$ di 625 = _____

$\frac{2}{3}$ di 288 = _____

$\frac{6}{8}$ di 1.160 = _____

$\frac{3}{6}$ di 402 = _____

$\frac{5}{9}$ di 3.258 = _____

$\frac{2}{4}$ di 316 = _____

$\frac{4}{7}$ di 1.981 = _____

Calcola sul quaderno, ma **<u>in riga</u>** le seguenti frazioni decimali di un numero, dopo aver guardato l'esempio.

$\frac{8}{10}$ di 1000 → 1000 :10= 100 è $\frac{1}{10}$

100 X 8= 800 sono $\frac{8}{10}$

Prova da solo/a come sopra.

$\frac{1}{10}$ di 50 $\frac{6}{10}$ di 800 $\frac{1}{100}$ di 2000 $\frac{10}{100}$ di 900 $\frac{6}{100}$ di 4000 $\frac{1}{1000}$ di 2000

MARTEDÌ 21 APRILE

Italiano

Ascolta e guarda il video con le spiegazioni delle attività

Pag 136 e 137 del libro azzurro

Matematica

Scrivi la data e ricopia sul quaderno la seguente spiegazione cercando di capire.

DALLA FRAZIONE DECIMALE AI NUMERI DECIMALI

Le frazioni decimali si possono anche scrivere sotto forma di numero decimale dividendo il numeratore per il denominatore. I numeri decimali si scrivono utilizzando la virgola, che serve a separare la parte intera da quella decimale.

→ i DECIMI



Ho colorato 1 delle 10 parti uguali in cui ho diviso l'intero.

$\frac{1}{10} \rightarrow 1:10 \rightarrow$ u d 0,1

0 unità intere

una delle 10 parti

Il decimo occupa questa posizione

K	h	da	u	d
			0,	1

Il simbolo del decimo è d

Il decimo è 10 volte più piccolo dell'unità intera ed è separato da essa dalla virgola

1° Esercizio: di ogni parte colorata scrivi la frazione decimale e il numero decimale corrispondente.

0 INTERI
1 PARTE SU 10

$\frac{1}{10} \rightarrow 0,1$



COLORA I DECIMI INDICATI (con colori diversi)

0,8

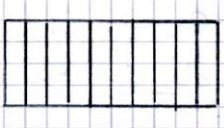

0,6

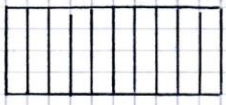

0,2

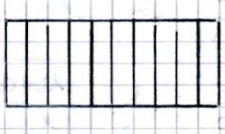

0,3

0,4

0,7

0,5

0,9

0,1

1

Ricopia e completa la seguente linea dei numeri sul quaderno, svolgi gli esercizi .

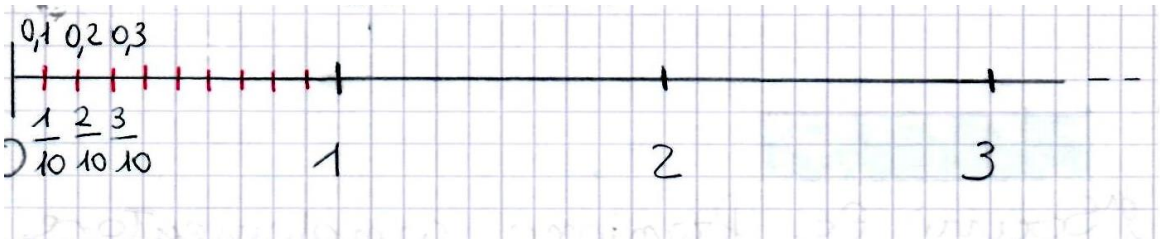

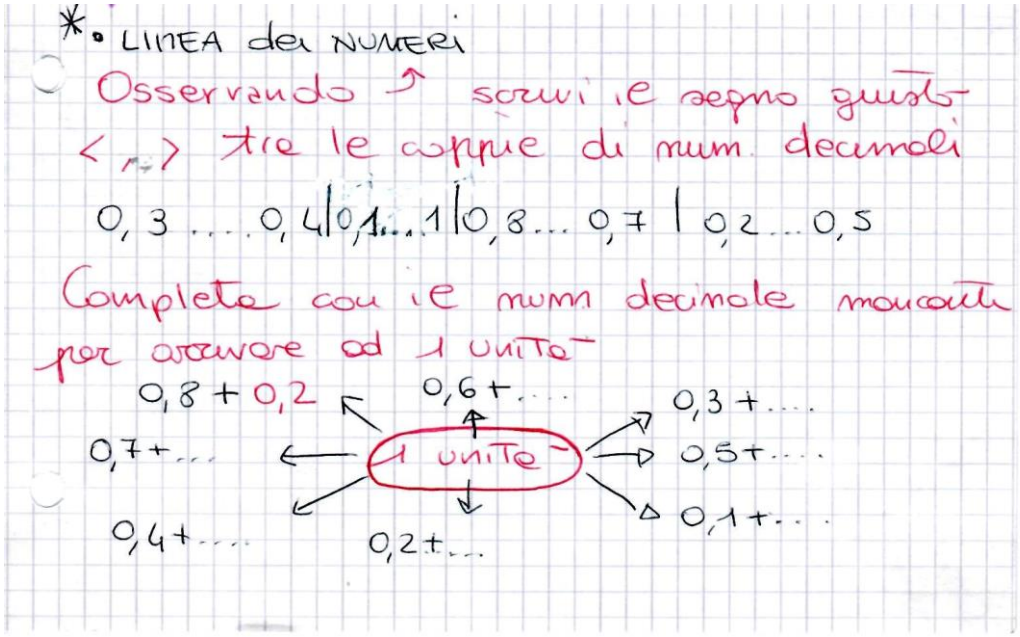

Scienze

Leggi attentamente la seguente scheda, guarda il video e lo schema: ripeti più volte da solo/a con le tue parole; quando ti senti sicuro invia il tuo video spiegandomi che cosa hai capito .

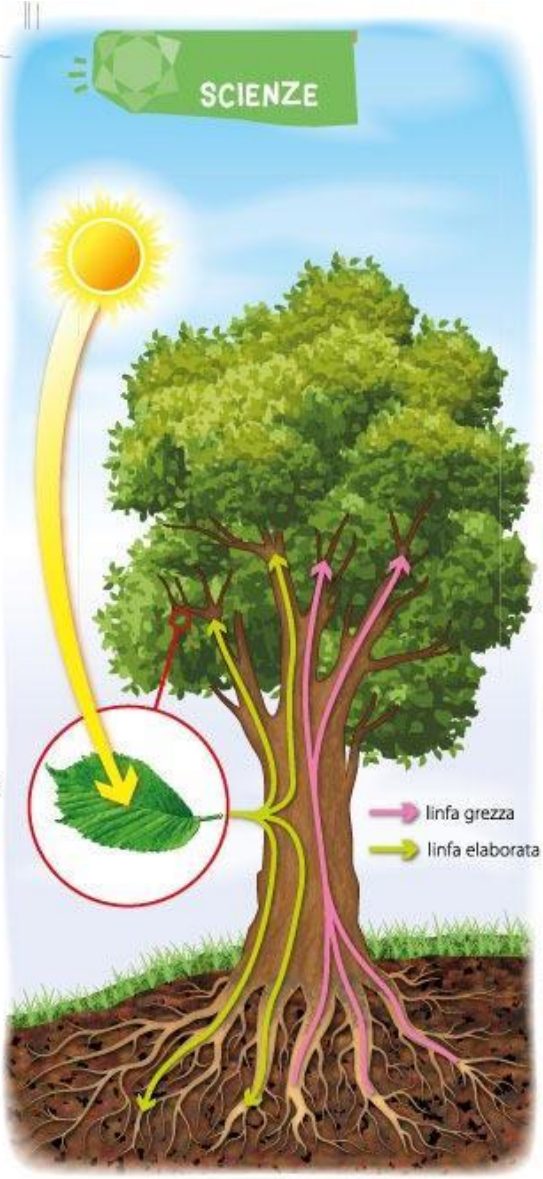

LE PIANTE SI NUTRONO

Le piante sono gli unici esseri viventi capaci di produrre da soli il proprio nutrimento: per questo vengono definite organismi autotrofi. Compiono questo processo grazie a una trasformazione chimica che avviene nelle foglie: la **fotosintesi clorofilliana**.

1. Le radici assorbono dal terreno acqua e sali minerali che formano la linfa grezza. Attraverso dei sottili canali presenti nel fusto, la linfa grezza sale fino alle foglie.

2. Le foglie assorbono l'anidride carbonica dall'aria e allo stesso tempo, grazie alla clorofilla (la sostanza che rende le foglie verdi) catturano l'energia solare. Questa energia è fondamentale per compiere la fotosintesi e trasformare la linfa grezza si trasforma in linfa elaborata, ricca di zuccheri.

3. La linfa elaborata, attraverso i canali linfatici raggiunge ogni parte della pianta e la nutre. Nel corso di questa trasformazione le foglie liberano ossigeno.

INSIEME

- Osserva l'immagine e racconta a un compagno come avviene la fotosintesi clorofilliana, con parole tue. Poi, a tua volta, ascolta il suo racconto.

METODO DI STUDIO

Comprendo le parole

Sottolinea nel testo le frasi che ti spiegano il significato delle seguenti espressioni:

organismi autotrofi; linfa grezza; linfa elaborata; clorofilla.

Guarda il seguente video sulla fotosintesi

https://www.youtube.com/watch?v=lv3M4AjD18Q

Paradiso delle mappe

Le piante si nutrono

le piante producono da sole il proprio

nutrimento

3 nelle **foglie** ci sono dei **piccoli fori** attraverso i quali esse **catturano** un **gas dall'aria, anidride carbonica**

2 la **linfa grezza** attraverso il **fusto** raggiunge tutti i **rami** e arriva alle **foglie**

1 le **radici** assorbono dal terreno **l'acqua** e i **sali minerali** che formano la **linfa grezza**

4 nelle **foglie** è presente la **clorofilla,** una sostanza capace di **catturare l'energia del Sole**

5 grazie all'energia del Sole avviene una trasformazione, la **fotosintesi** durante la quale la pianta usa l'anidride carbonica e l'acqua per produrre la **linfa elaborata** che serve per il suo **nutrimento.** Durante questo processo le foglie liberano nell'aria **l'ossigeno**

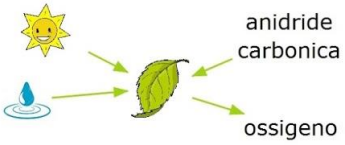

www.anastasis.it

MERCOLEDÌ 22 APRILE

Italiano

Ascolta e guarda il video con le spiegazioni dell' attività

Scrivi un testo descrittivo seguendo questa scaletta

CIAO. MI PRESENTO...

● Presentazione...Ciao, io sono ...mi chiamo...

● Aspetto fisico Sono alto/ basso, magro,, grasso….continua aggiungendo informazioni su

**** viso***

**** capelli***

Prosegui aggiungendo informazioni su

- abbigliamento

- carattere

**** ciò che ti piace e ciò che non ti piace***

-Continua raccontando un episodio significativo che ti è accaduto

- Termina infine con una frase di conclusione

Se ti va, puoi anche disegnarti

Puoi inviare la tua produzione entro venerdì

Geografia

Leggi almeno 5 volte a pag 121 del libro giallo

Rileggi a pag 118,119,120 del libro giallo ed esegui il laboratorio a pag 198, poi invia la foto ALLA MAESTRA , NON sulla chat di classe

A TURNO VERRANNO EFFETTUATE LE INTERROGAZIONI IN VIDEO CHIAMATA

Matematica

Ricopia gli esempi cercando di capire e svolgi gli esercizi.

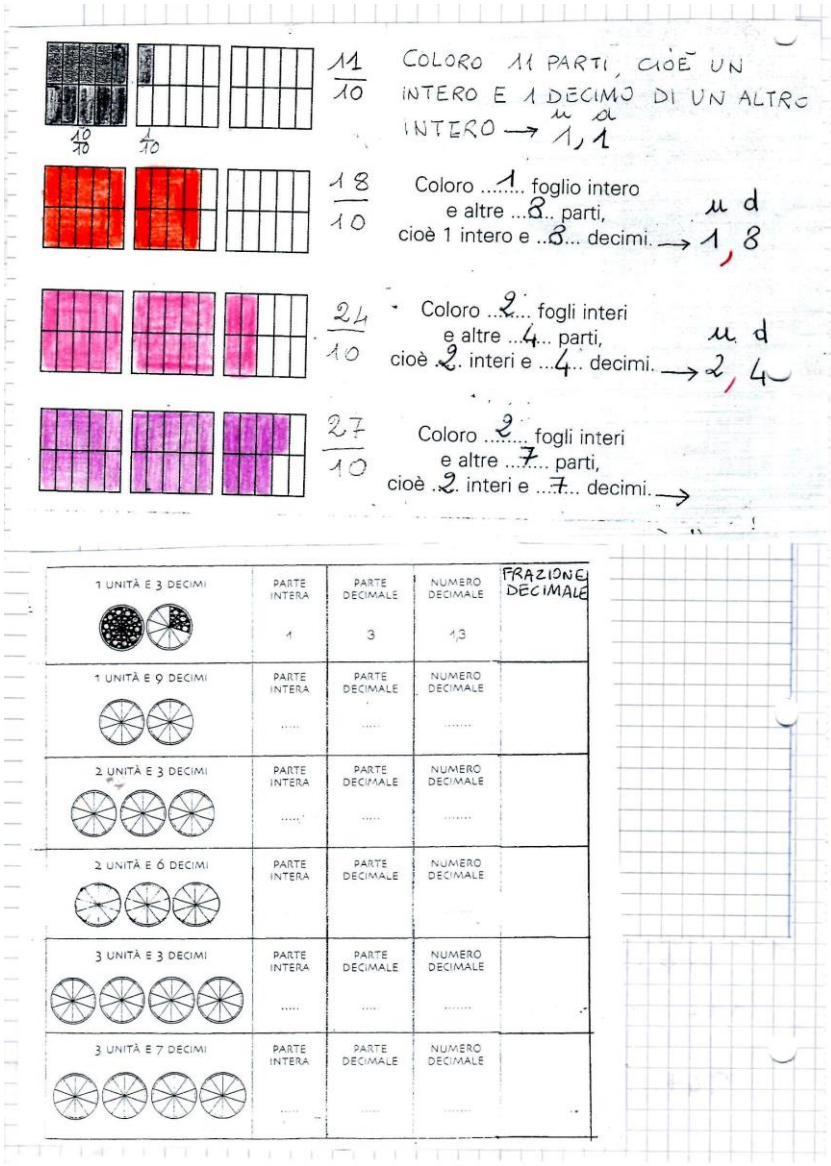

1 Osserva la linea dei numeri e completa le tabelle.



Precede		Segue
.....	0,4	.....
.....	0,9	.....
.....	1,3	.....
.....	1,1	.....

Precede		Segue
.....	2	.....
.....	1,2	.....
.....	1,4	.....
.....	0,5	.....

2 Scrivi sulla linea i numeri decimali che mancano.

3 Osserva la linea dei numeri, poi riscrivi in ordine decrescente.

1,8 .....
1,6 .....
2,3 .....
1,9 .....
2,5 .....
3,2 .....
2 .....
3,5 .....
3,1 .....
2,8 .....
3 .....

4 Osserva le linee dei numeri e confronta usando i segni >, <.

2,4 ☐ 3,6 ☐ 4,9 1,6 ☐ 0,6 ☐ 2,6
1,4 ☐ 2,8 ☐ 3,4 1,5 ☐ 2,2 ☐ 2,4
2,5 ☐ 3,1 ☐ 1,5 3,2 ☐ 3,4 ☐ 2,7

5. COMPLETA CON IL NUMERO DECIMALE MANCANTE PER ARRIVARE AD 1 UNITÀ.

0,8 + 0,2 = 1	0,6 + ... = 1	0,2 + ... = 1
0,4 + ... = 1	0,5 + ... = 1	0,9 + ... = 1
0,7 + ... = 1	0,1 + ... = 1	0,3 + ... = 1

GIOVEDÌ 23 APRILE

Italiano

Ascolta e guarda il video con le spiegazioni delle attività

Esercizi a pag 118 del libro azzurro ,

Copia sul quaderno e studia a memoria il presente, l'imperfetto, il passato remoto e il futuro del verbo essere , a pag 141 del libro azzurro

Invia foto del lavoro svolto

Matematica

Svolgi pag.50 51 e 45 del libro verde.

Gioco facoltativo sulle frazioni

https://wordwall.net/it/resource/879436/matematica/memory-frazioni

VENERDÌ 24 APRILE

Italiano

Ascolta e guarda il video con le spiegazioni delle attività

Esercizi a pag 70 del libro azzurro

Dettato , in videochiamata

Matematica

Svolgi sul quaderno i problemi di pag.156/157 *dell'es.2* e dell'es 3 **solo lettere a e b**.

Geometria

Osserva attentamente il video L'uso del goniometro poi provaci tu.

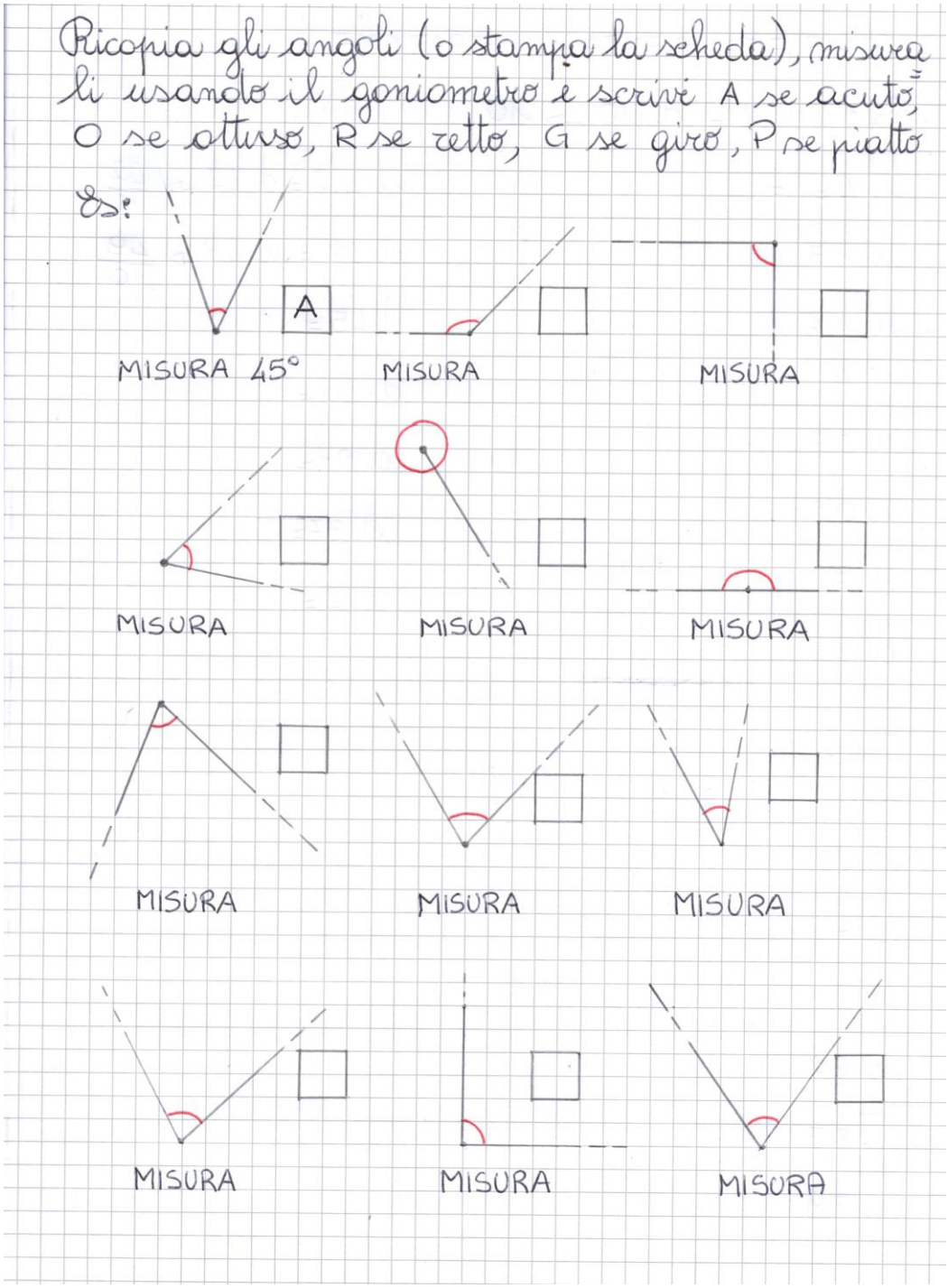

Inglese

Unità 5 : Le parti del corpo
svolgi pag.60/61/62/63

RIFERIMENTI …PER INVIARE I TUOI LAVORI

Carlotti Antonella carlotti@cdpav.com
Leonelli Valentina leonelli@cdpav.com